53 Lire des graphiques

1 –

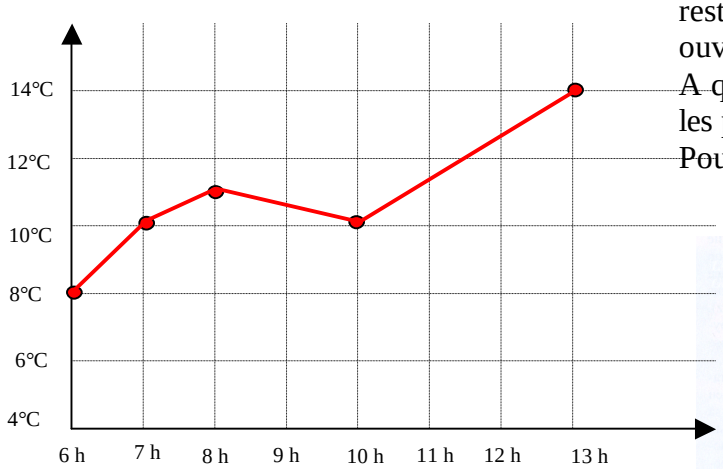

Observe le graphique de la page ci-dessus et réponds aux questions.
En se levant, Mathilde a regardé le thermomètre, il indiquait 9°C. Vers quelle heure Mathilde s'est-elle levée ?
En se levant, Juan a regardé le thermomètre, il indiquait 13°C. Vers quelle heure Juan s'est-il levé ?
Claire a dit que quand elle s'est réveillée le thermomètre affichait entre 10 et 11°C. Est-il possible de fixer l'heure de réveil de Claire ?

2 – Observe le graphique de la production de pétrole des pays de l'OPEP en avril 2004.
Quels étaient les trois plus importants producteurs ?

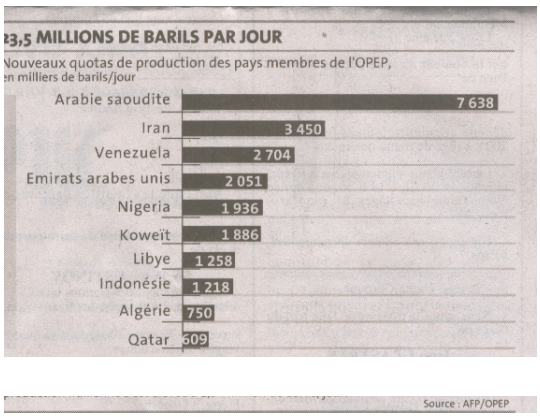

Publié par le journal *Le Monde*, mai 2004.

3 – Observe ces cartes indiquant les restaurants de l'agglomération de Strasbourg ouverts à diverses heures de la journée.
A quelle heure les restaurants ouverts sont-ils les plus nombreux ?
Pourquoi semblent-ils tous regroupés ?

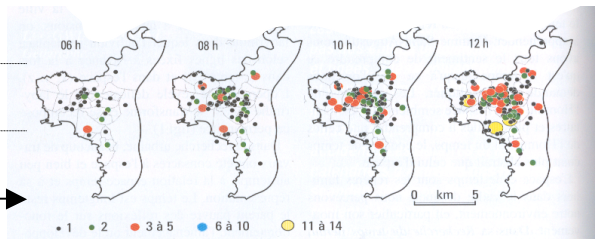

D'après *Revue du Palais de la Découverte*, n°315, février 2004, p. 44

4 – Observe ce graphique indiquant les restaurants de l'agglomération de Strasbourg ouverts à diverses heures de la journée.
Combien de restaurants sont ouverts aux moments de forte affluence ?
Quand les restaurants ouverts sont-ils le moins nombreux ?

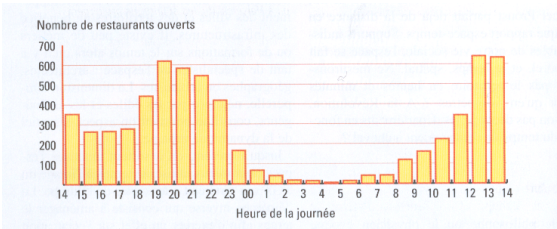

D'après *Revue du Palais de la Découverte*, n°315, février 2004

5 – Observe le graphique, réponds aux questions.
Sur 100 000 naissances, combien de personnes vivaient encore à 50 ans en 1990 ?

Sur 100 000 naissances, combien de personnes vivaient encore à 50 ans en 1890 ?

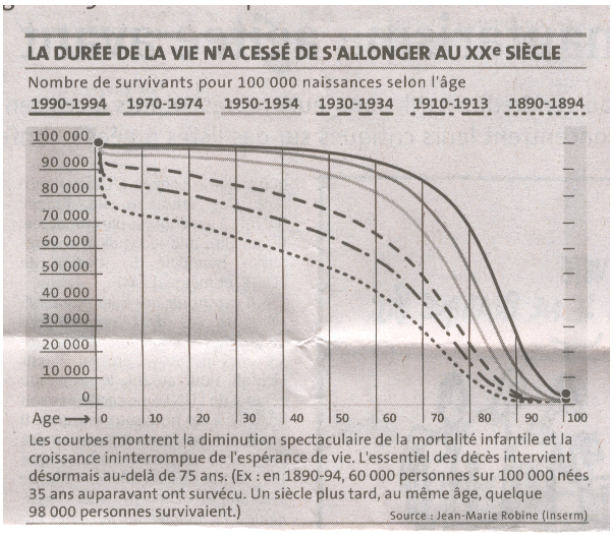

Publié par le journal *Le Monde*, mai 2004.