Prénom : ……. Date : ……

Classe : ……. Essai n° ……

Ceinture blanche de calcul

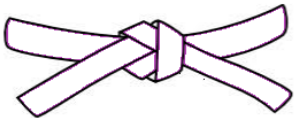

- ❒ Je sais poser une addition de nombre entiers.
- ❒ Je sais poser une soustraction de nombres entiers.

Pose et effectue les additions suivantes :

507 + 67

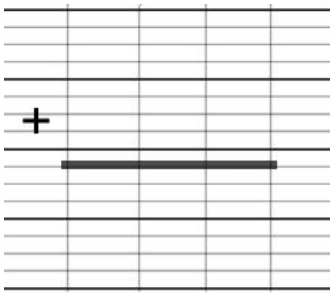

279 + 47

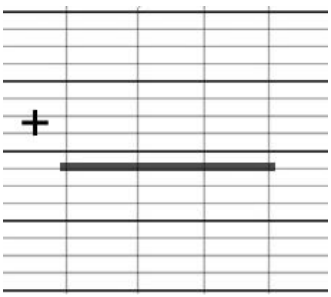

598 + 63

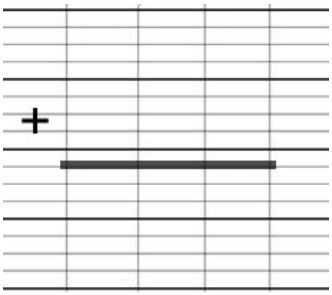

646+810

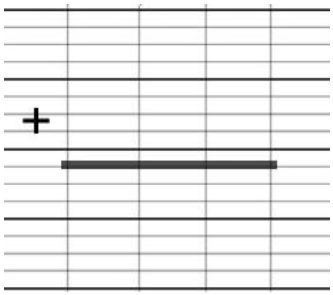

245 - 58

327 - 92

476 - 87

601 - 232

Bilan : ……opérations sur 8 sont justes.

La ceinture est : ❒

❒

❒