Test n°1

Prénom : …… Date : ……

Classe : …… Essai n° ……

Ceinture bleu clair de calcul

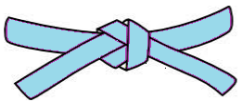

- ❒ Je sais poser une addition de nombre décimaux.
- ❒ Je sais poser une soustraction de nombres décimaux.

Pose et effectue les opérations suivantes :

60,45 + 19,12 17,89+25,47 45,3+19,62 43,402+15,28

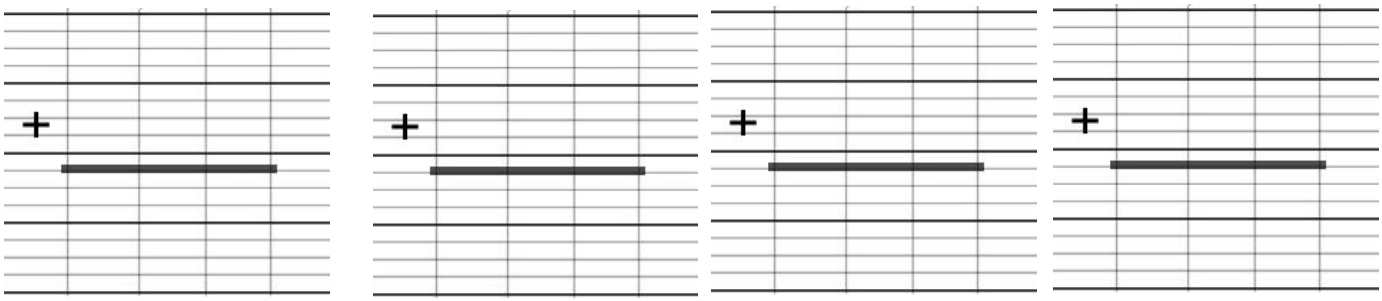

24,84 – 18,62 32,25 – 24,19 67,6 – 54,65 62,3 – 51,102

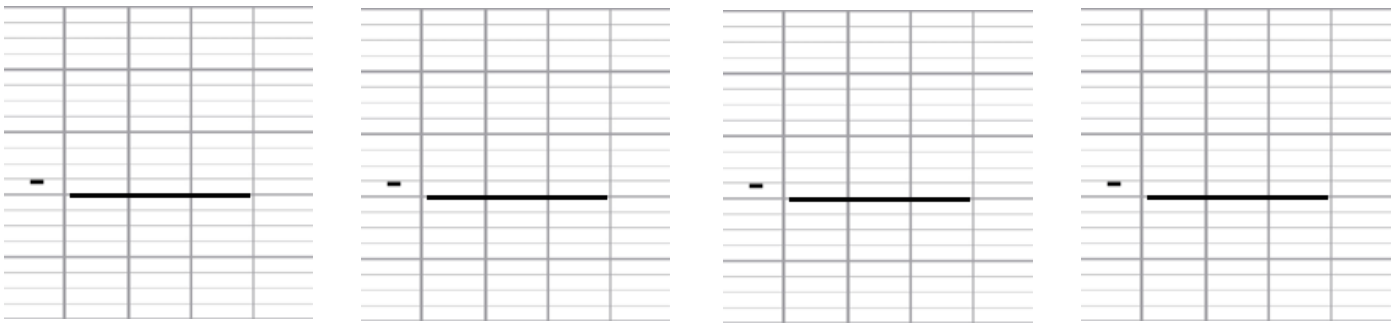

Bilan : ……opérations sur 8 sont justes.

La ceinture est : ❒

❒

❒

Test n°2

Prénom : ……

Date : ……

Classe : ……

Essai n° ……



Ceinture bleu clair de calcul

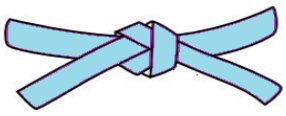

- ❒ Je sais poser une addition de nombre décimaux.
- ❒ Je sais poser une soustraction de nombres décimaux.

Pose et effectue les opérations suivantes :

32,61 + 23,12

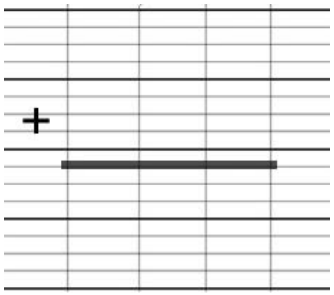

64,25 + 34,89

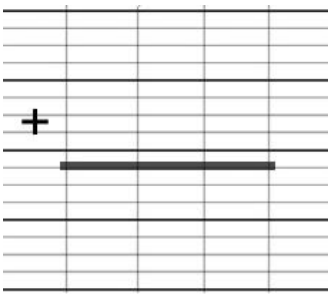

45,6 + 23,98

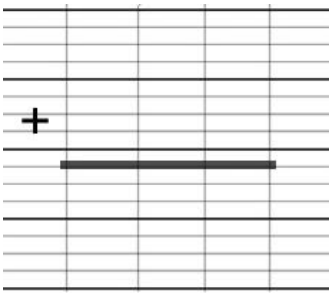

12,401 + 11,63

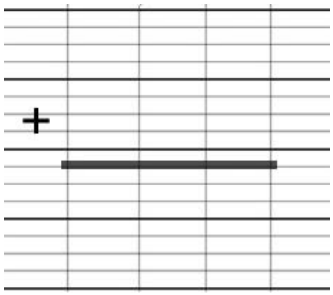

65,89 – 41,54

32,12 – 28,49

64,7 – 35,94

74,6 – 53,321

Bilan : ……opérations sur 8 sont justes.

La ceinture est : ❒

❒

❒