Test n°1

Prénom : …….. Date : ……

Classe : …….. Essai n° ……

Ceinture bleu foncé de calcul

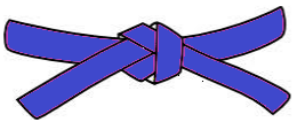

❒ Je sais poser une division à 1 chiffre avec un quotient décimal

Pose et effectue les divisions suivantes :

962 : 8



215 : 2



383 : 9



4153 : 5



Bilan : ……opérations sur 4 sont justes.

La ceinture est : ❒

❒

❒

Test n°2

Prénom : ……. Date : ……

Classe : ……. Essai n° ……



Ceinture bleu foncé de calcul

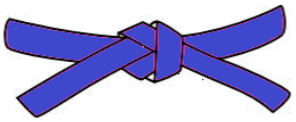

❒ Je sais poser une division à 1 chiffre avec un quotient décimal

Pose et effectue les divisions suivantes :

4506 : 3

691 : 8

156 : 6

917 : 4

Bilan : ……opérations sur 4 sont justes.

La ceinture est : ❒

❒

❒

Test n°3

Prénom : ……. Date : …….

Classe : ……. Essai n° …….

Ceinture bleu foncé de calcul

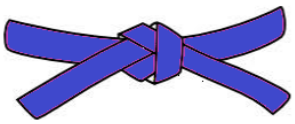

❒ Je sais poser une division à 1 chiffre avec un quotient décimal

Pose et effectue les divisions suivantes :

653 : 4

374 : 7

3633 : 2

391 : 8

Bilan : ……opérations sur 4 sont justes.

La ceinture est : ❒

❒

❒