L'INDE : UN GEANT DEMOGRAPHIQUE FACE AUX DEFIS DU DEVELOPPEMENT DURABLE

© Marie Desmares

Nous allons étudier la situation démographique de l’Inde dans le cadre d’une tâche complexe.

TACHE

COMPLEXE

binôme

Nous allons compléter une fiche d'activité …

5G1 | A1 | M. Desmares | L'INDE : UN GEANT DEMOGRAPHIQUE FACE AUX DEFIS DU DEVELOPPEMENT DURABLE

Un géant démographique

Un ..... qui permet de localiser l'Inde : l'Inde est en .....

Un ..... qui montre que les Indiens sont de plus en plus ..... .

L'Inde est un géant démographique : avec ..... c'est le ....e pays le plus peuplé. (↑ nombre d'habitants)
La population a ..... depuis 1950 car la natalité est toujours plus ..... que la mortalité : l'Inde connaît une forte croissance ..... .

Croissance démographique : augmentation de la population
Natalité : nombre de naissances en un an
Mortalité : nombre de décès en un an
Espérance de vie : durée de vie moyenne

De meilleures conditions de vie mais des inégalités

Un ..... qui montre l'..... des conditions de vie en Inde.

Une ..... qui montre des ..... dans la ville de Mumbai (..... et immeubles en construction)

Les conditions de vie se sont ..... (ex : ..... de l'espérance de vie, ... des richesses).

Mais les ..... entre les hommes sont plus fortes :
- près d'un Indien sur ..... est pauvre alors qu'il y a de nombreux milliardaires
- de nombreux Indiens vivent dans des ..... alors que d'autres vivent dans des ..... confortables
- un Indien sur ..... ne sait ni lire ni écrire

Les défis du développement

Une ..... de la Révolution ..... . Elle ..... l'agriculture.

Une ..... de l'accès aux ..... en Inde. Elle montre que de nombreux Indiens n'ont pas de ..... chez eux.

L'Etat essaie de limiter la croissance démographique en limitant les ..... , mais elle reste élevée.

L'Etat a lancé la ..... qui permet de nourrir les hommes. Mais cela ..... l'environnement et de nombreux Indiens n'ont pas les moyens de s'alimenter correctement.

Des ..... sont construits en ville, mais seuls les plus ..... peuvent y accéder. De nombreux Indiens n'ont toujours pas de ..... .

… à l'aide d'un corpus documentaire.

5G1 | A1 | CORPUS DOCUMENTAIRE

L'INDE : UN GEANT DEMOGRAPHIQUE FACE AUX DEFIS DU DEVELOPPEMENT DURABLE

Un géant démographique

Planisphère muet

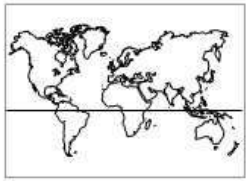

Les pays les plus peuplés



L'évolution de la population en Inde (graphique en courbe)



Je lis un graphique en courbe

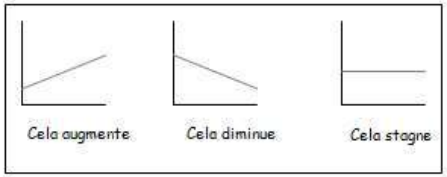

De meilleures conditions de vie mais des inégalités

Des indicateurs des conditions de vie en Inde

	1950	2020
Nombre d'habitants	377 millions	1,28 milliard
Nombre d'enfants par femme	6	2,3
Mortalité infantile	109 pour 1000	30 pour 1000
Espérance de vie	35 ans	70,5 ans
Analphabétisme	82 %	22,5 %
PIB / habitant / an	600 $	2000 $

Une croissance économique qui ne bénéficie pas à tous les Indiens

L'Inde appartient au groupe des grandes puissances mondiales (3e rang) avec une croissance record de 7,5 % en 2015. Cependant, 23,6 % de sa population vit encore sous le seuil de pauvreté[1] soit 290 millions d'habitants. L'Inde détient le record du nombre de pauvres mais est aussi au troisième rang mondial pour le nombre de milliardaires !

Même si la pauvreté recule [...], cette baisse reste insuffisante. Elle relativise le succès de l'économie indienne dont la croissance avait alimenté l'espoir qu'elle entraînerait tout le pays et sa population vers le développement.

D'après Lucie Dejouhanet, « L'Inde, puissance en construction », *La Documentation photographique* n°8109, janvier-février 2016.

1. Limite de revenu au-dessous duquel une famille ou une personne est considérée comme pauvre.

Bidonville et immeubles neufs en construction à Mumbai

Définitions

Mortalité infantile : nombre d'enfants de moins de un an mort pendant un an
Analphabétisme : fait de ne savoir ni lire ni écrire
PIB / habitant / an : Produit Intérieur Brut par habitant et par an (ensemble des richesses créées en un an dans un pays et rapportées au nombre d'habitants)
Croissance (ou croissance économique) : augmentation des richesses produites

Les défis du développement

La « Révolution verte » (province du Pendjab) en Inde

La « Révolution verte », introduite dans les années 1960, modernise l'agriculture à l'aide de l'irrigation, des pesticides et des engrais. Si elle permet de nourrir les hommes, elle a des effets négatifs sur l'environnement (pollution des sols…).
Ne découper que l'image.

L'accès aux toilettes en Inde

La malnutrition des enfants en Inde (800 millions d'Indiens n'ont pas accès à une nourriture riche et diversifiée)

La classe est divisée en trois colonnes. Chaque colonne complète une partie de la fiche d'activité, puis une mise en commun est faite à l'oral et au tableau.

5G1 | A1 | M. Desmares | L'INDE : UN GEANT DEMOGRAPHIQUE FACE AUX DEFIS DU DEVELOPPEMENT DURABLE

Un géant démographique

Un ..... qui permet de localiser l'Inde : l'Inde est en .....

Un ..... qui montre que les Indiens sont de plus en plus ..... .

L'Inde est un géant démographique : avec ....., c'est le ....e pays le plus peuplé.
(1, nombre d'habitants)
La population a ..... depuis 1950 car la natalité est toujours plus ..... que la mortalité : l'Inde connaît une forte croissance ..... .

Croissance démographique : augmentation de la population
Natalité : nombre de naissances en un an
Mortalité : nombre de décès en un an
Espérance de vie : durée de vie moyenne

De meilleures conditions de vie mais des inégalités

Un ..... qui montre l'..... des conditions de vie en Inde.

Une ..... qui montre des ..... dans la ville de Mumbai (..... et immeubles en construction)

Les conditions de vie se sont ..... (ex : ..... de l'espérance de vie, ... des richesses).

Mais les ..... entre les hommes sont plus fortes :
- près d'un Indien sur ..... est pauvre alors qu'il y a de nombreux milliardaires
- de nombreux Indiens vivent dans des ..... alors que d'autres vivent dans des ..... confortables
- un Indien sur ..... ne sait ni lire ni écrire

Les défis du développement

Une ..... de la Révolution ..... . Elle ..... l'agriculture.

Une ..... de l'accès aux ..... en Inde. Elle montre que de nombreux Indiens n'ont pas de ..... chez eux.

L'Etat essaie de limiter la croissance démographique en limitant les ..... , mais elle reste élevée.

L'Etat a lancé la ..... qui permet de nourrir les hommes. Mais cela ..... l'environnement et de nombreux Indiens n'ont pas les moyens de s'alimenter correctement.

Des ..... sont construits en ville, mais seuls les plus ..... peuvent y accéder. De nombreux Indiens n'ont toujours pas de ..... .

Pour corriger, un binôme de chaque colonne vient au tableau présenter sa fiche d’activité.

Le professeur complète la fiche sur les indications du binôme. Les autres élèves corrigent leurs propres fiches.

Voici ce qui était attendu.

5G1 | A1 | M. Desmares

L'INDE : UN GEANT DEMOGRAPHIQUE FACE AUX DEFIS DU DEVELOPPEMENT DURABLE

Un géant démographique

Un planisphère qui permet de localiser l'Inde : l'Inde est en Asie du Sud.



Un graphique en courbe qui montre que les Indiens sont de plus en plus nombreux.

L'Inde est un géant démographique : avec 1,4 milliard, c'est le 1er pays le plus peuplé.

La population a fortement augmenté depuis 1950 car la natalité est toujours plus forte que la mortalité : l'Inde connaît une forte croissance démographique.

Croissance démographique : augmentation de la population
Natalité : nombre de naissances en un an
Mortalité : nombre de décès en un an
Espérance de vie : durée de vie moyenne

De meilleures conditions de vie mais des inégalités

	1950	2020
Nombre d'habitants	377 millions	1,38 milliard
Nombre d'enfants par femme	6	2,2[1]
Mortalité infantile	169 pour 1000	33 pour 1000
Espérance de vie	35 ans	70,5 ans
Analphabétisme	82 %	22,5 %
PIB / habitant / an	610 $	2500 $

1. Depuis les années 1950, le gouvernement a mis en place une politique de limitation des naissances (contraception...).

Un tableau qui montre l'amélioration des conditions de vie en Inde.

Une photographie qui montre des inégalités dans la ville de Mumbai (bidonville et immeubles en construction)

Les conditions de vie se sont améliorées (ex : allongement de l'espérance de vie, augmentation des richesses).

Mais les inégalités entre les hommes sont plus fortes :
- près d'un Indien sur quatre est pauvre alors qu'il y a de nombreux milliardaires
- de nombreux Indiens vivent dans des bidonvilles alors que d'autres vivent dans des appartements confortables
- un Indien sur cinq ne sait ni lire ni écrire

Les défis du développement

Une photographie de la Révolution verte. Elle modernise l'agriculture.

Une carte de l'accès aux toilettes en Inde. Elle montre que de nombreux Indiens n'ont pas de toilettes chez eux.

L'Etat essaie de limiter la croissance démographique en limitant les naissances, mais elle reste élevée.

L'Etat a lancé la Révolution verte qui permet de nourrir les hommes. Mais cela pollue l'environnement et de nombreux Indiens n'ont pas les moyens de s'alimenter correctement.

Des logements sont construits en ville, mais seuls les plus riches peuvent y accéder. De nombreux Indiens n'ont toujours pas de toilettes.