GÉOGRAPHIE - Thème n°2

Habiter un espace de faible densité

Chapitre 2

Habiter un espace agricole de faible densité.

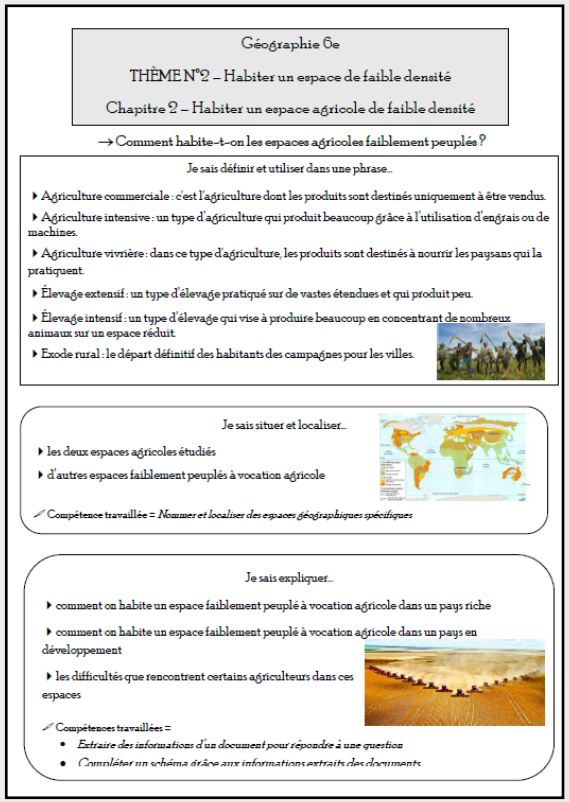

Géographie 6e

THÈME N°2 – Habiter un espace de faible densité

Chapitre 2 – Habiter un espace agricole de faible densité

→ Comment habite-t-on les espaces agricoles faiblement peuplés ?

Je sais définir et utiliser dans une phrase…

- Agriculture commerciale : c'est l'agriculture dont les produits sont destinés uniquement à être vendus.
- Agriculture intensive : un type d'agriculture qui produit beaucoup grâce à l'utilisation d'engrais ou de machines.
- Agriculture vivrière : dans ce type d'agriculture, les produits sont destinés à nourrir les paysans qui la pratiquent.
- Élevage extensif : un type d'élevage pratiqué sur de vastes étendues et qui produit peu.
- Élevage intensif : un type d'élevage qui vise à produire beaucoup en concentrant de nombreux animaux sur un espace réduit.
- Exode rural : le départ définitif des habitants des campagnes pour les villes.

Je sais situer et localiser…

- les deux espaces agricoles étudiés
- d'autres espaces faiblement peuplés à vocation agricole

Compétence travaillée = *Nommer et localiser des espaces géographiques spécifiques*

Je sais expliquer…

- comment on habite un espace faiblement peuplé à vocation agricole dans un pays riche
- comment on habite un espace faiblement peuplé à vocation agricole dans un pays en développement
- les difficultés que rencontrent certains agriculteurs dans ces espaces

Compétences travaillées =

- *Extraire des informations d'un document pour répondre à une question*
- *Compléter un schéma grâce aux informations extraits des documents*

Laissez le reste de la page libre pour coller le document ci-contre (doc. Qui sera distribué à votre retour)

– Étude de cas n°1 –

Habiter un village africain, au Burkina Faso

Localisons ce village.

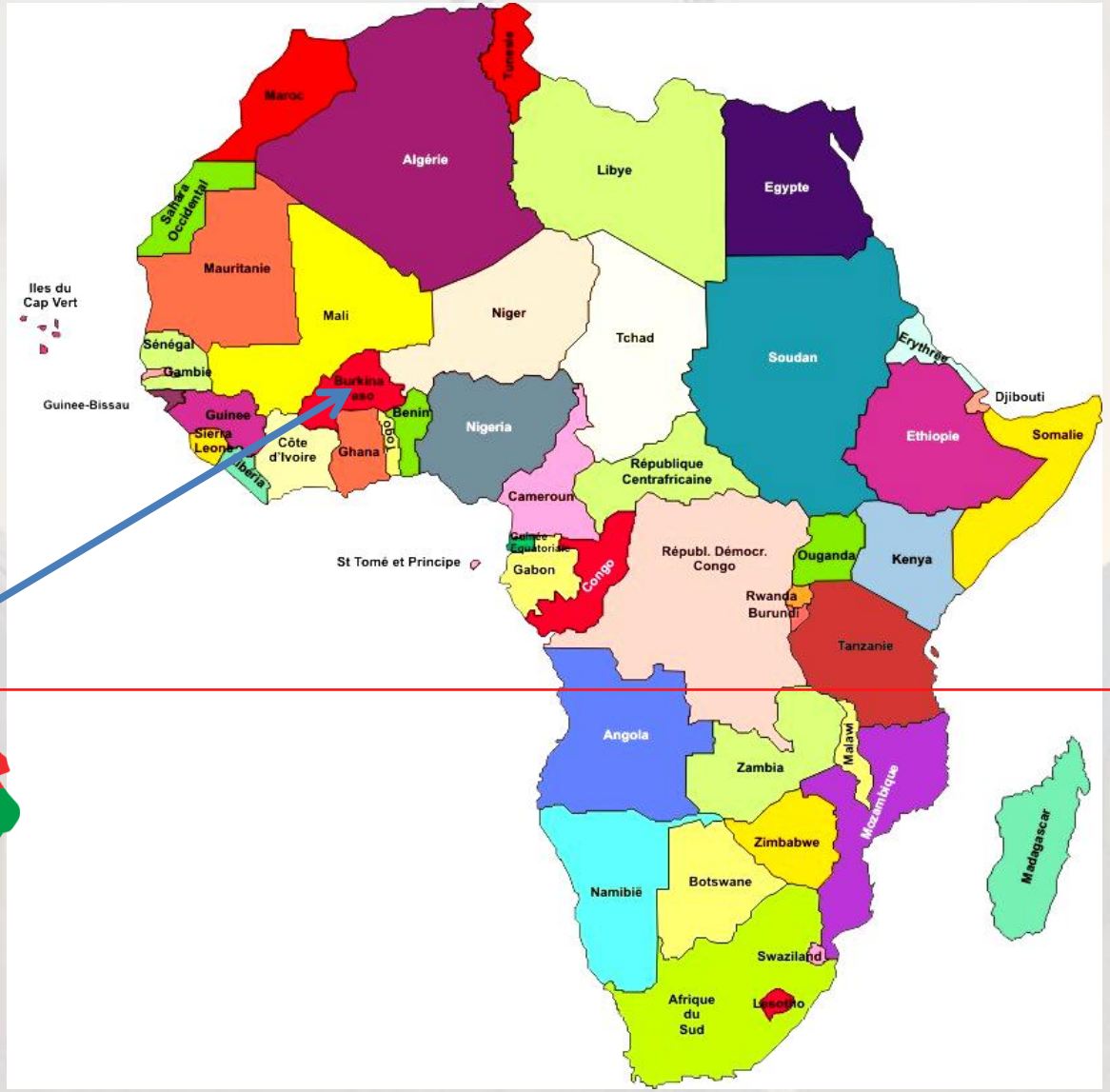

BURKINA
MALI
NIGER
BÉNIN
TOGO
GHANA
CÔTE D'IVOIRE
Djibo
Dori
Ouahigouya
Goursi
Kongoussi
Tougan
Kaya
Yako
Bogandé
Nouna
Toma
Dédougou
OUAGADOUGOU
Zorgo
Koupéla
Diapaga
Koudougou
Kombissiri
Fada-Ngourma
Tenkodogo
Houndé
Manga
Bobo-Dioulasso
Orodara
Léo
Pô
Diébougou
Banfora
Gaoua
0
100
200 km
Division Géographique de la Direction des Archives
du Ministère des Affaires Etrangères © 2004

Dans quel milieu climatique se situe le Burkina Faso ?

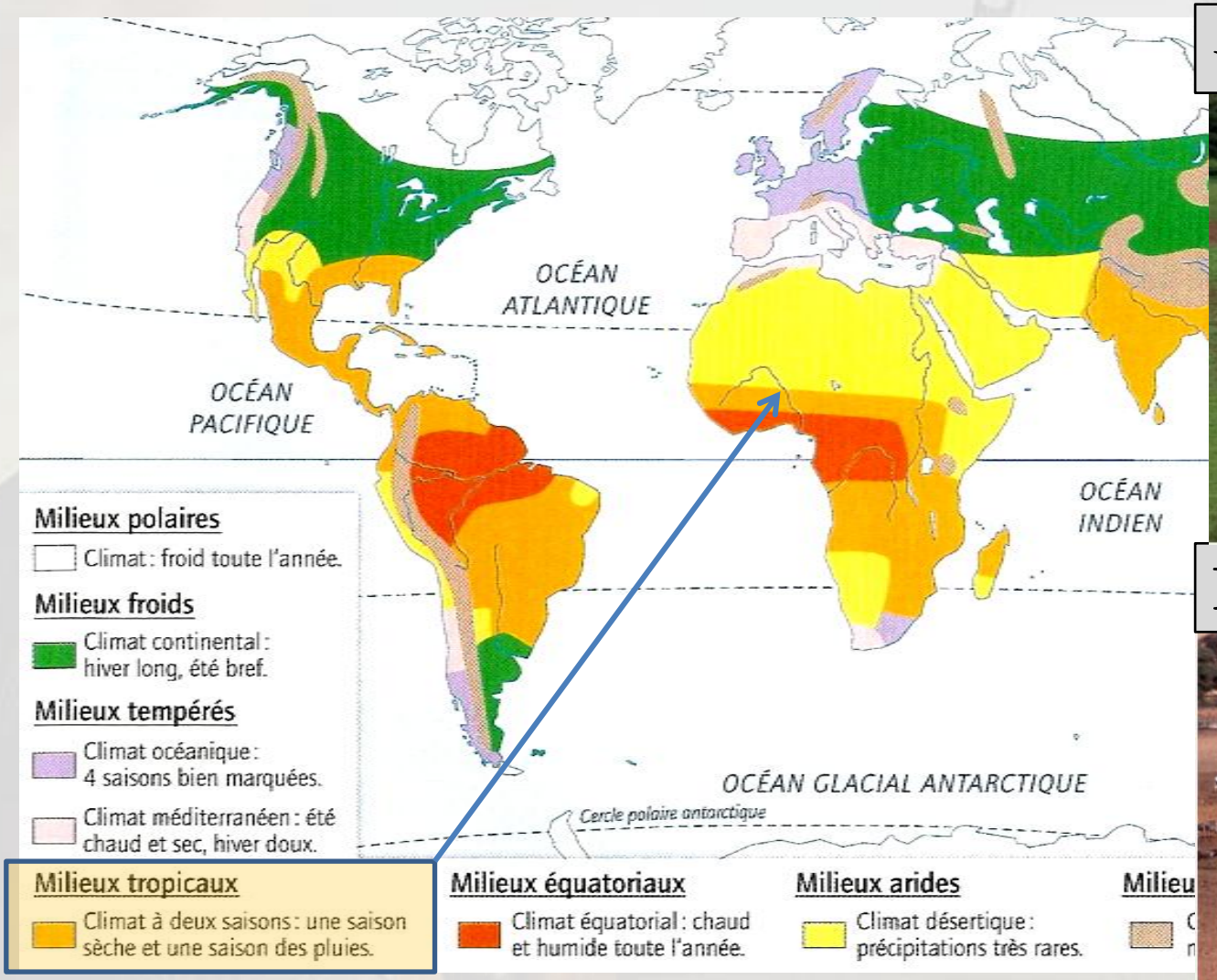

une saison des pluies

Et une saison sèche…

Les grands domaines bioclimatiques

Reproduire le schéma ci-après bien au milieu d'une page entière de votre cahier et complétez-le au fur et à mesure (comme sur le diaporama)

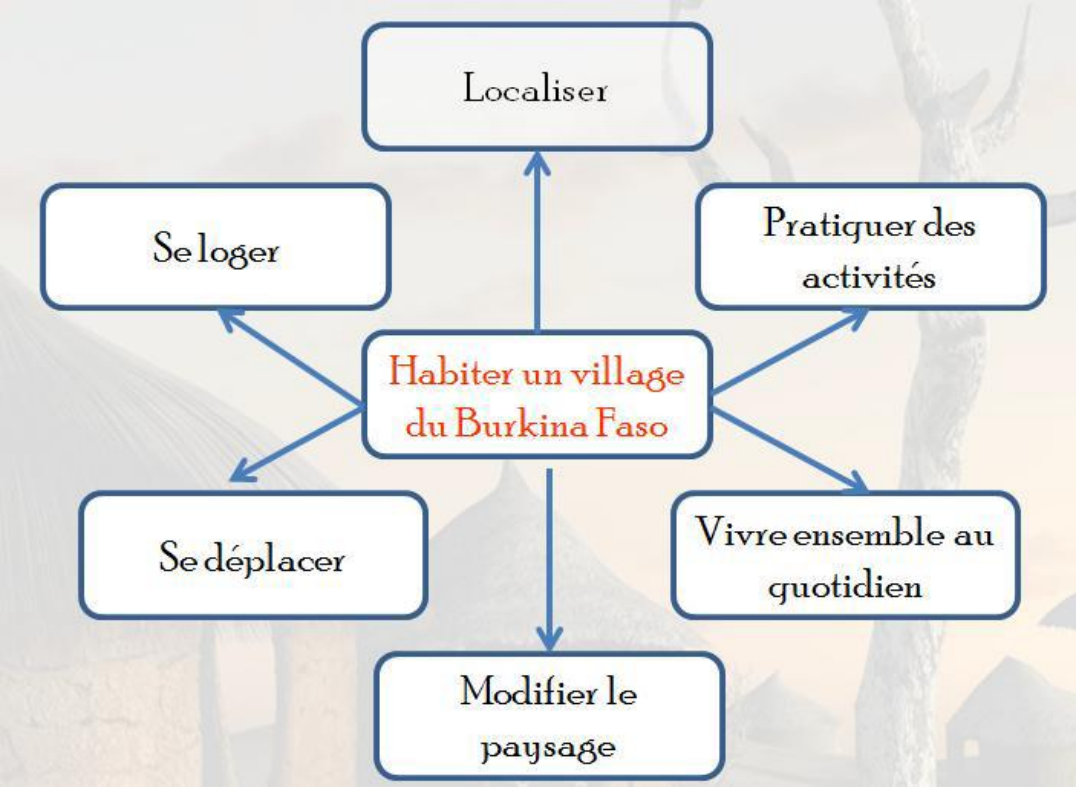

pays tropical au centre ouest de l'Afrique

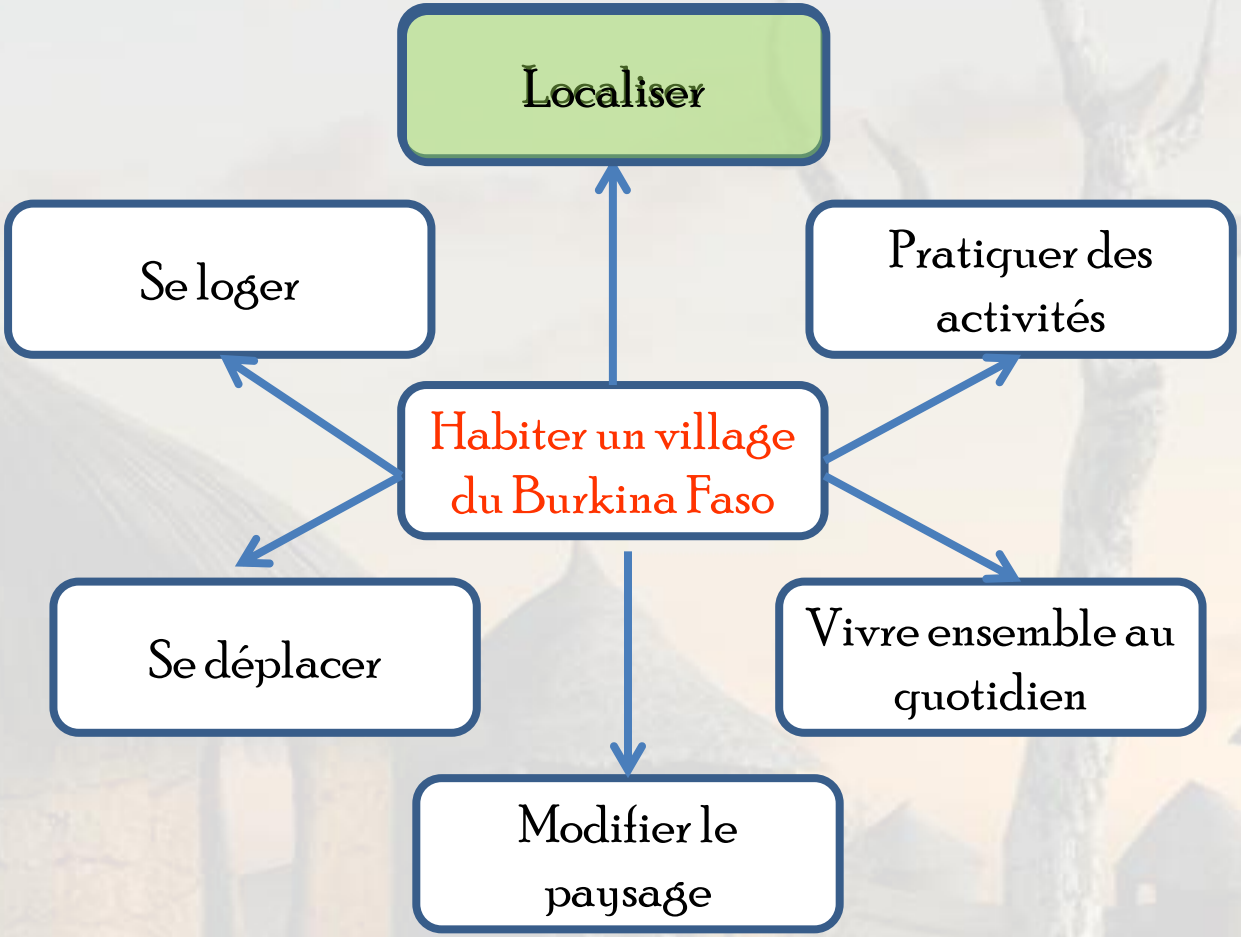

Sur la page suivante, recopiez sur votre cahier les questions et répondez-y en formulant des phrases correctes.

1. Comment qualifier la présence humaine dans cette zone du Burkina Faso ? (la densité de population : forte ou faible ?) Quelle est la forme du village ?

Dans cette zone du Burkina Faso, peu d'habitant y vit : c'est une zone de (très) faible densité de population.

Les quelques habitants vivent dans un village de forme circulaire.

2. Dans quel type d'habitation vivent les villageois ? Décrivez les maisons

Ces habitations sont-elles :

- Traditionnelles ~~ou modernes~~ ?
- Pauvres ~~ou riches~~ ?
- ~~Confortables ou~~ rudimentaires ?

pays tropical au centre ouest de l'Afrique

- village traditionnel, de forme circulaire
- maisons rudimentaires (cases)

Localiser

Se loger

Pratiquer des activités

Habiter un village du Burkina Faso

Se déplacer

Vivre ensemble au quotidien

Modifier le paysage

Pratiquer des activités

3. Le travail des champs … Où ? Comment ? Quoi ?

D'abord, entourant le village, il y a une couronne de champs de 500 à 1 000 mètres de rayon qui, bénéficiant des déchets ménagers, du fumier du petit bétail, sont cultivés tous les ans. On y produit des légumes, des condiments et le mil, base de l'alimentation.
Au-delà, tout autour, s'étend une zone de champs temporaires beaucoup plus vaste de 5 à 6 kilomètres. Ces champs, qui trouent la savane, portent la première année de l'arachide, la seconde du mil : puis ils sont laissés en jachère pour de nombreuses années.
Enfin, plus loin encore, c'est le domaine de la savane jamais cultivé.

D'après R. Lebeau, *Les grands types de structure agraire dans le monde,* Armand Colin, 2002.

Pratiquer des activités

3. Le travail des champs… Où ? Comment ? Quoi ?

D'abord, entourant le village, il y a une couronne de champs de 500 à 1000 mètres de rayon qui, bénéficiant des déchets ménagers, du fumier du petit bétail, sont cultivés tous les ans. On y produit des légumes, des condiments et le mil, base de l'alimentation.
Au-delà, tout autour, s'étend une zone de champs temporaires beaucoup plus vaste de 5 à 6 kilomètres. Ces champs, qui trouent la savane, portent la première année de l'arachide, la seconde du mil ; puis ils sont laissés en jachère pour de nombreuses années.
Enfin, plus loin encore, c'est le domaine de la savane jamais cultivé.

D'après R. Lebeau, *Les grands types de structure agraire dans le monde*, Armand Colin, 2002.

Les villageois cultivent régulièrement les champs proches du village pour leur alimentation quotidienne, notamment le mil. Les champs plus éloignés sont cultivés un an sur trois afin de les laisser au repos.

4. Quelle est la principale activité des villageois?
Avec quel genre d'outils travaillent-ils ?
Dans quelles conditions travaillent-ils ?

La principale activité des villageois est l'agriculture. Ils utilisent des outils rudimentaires pour cultiver et travaillent dans des conditions très difficiles (chaleur).

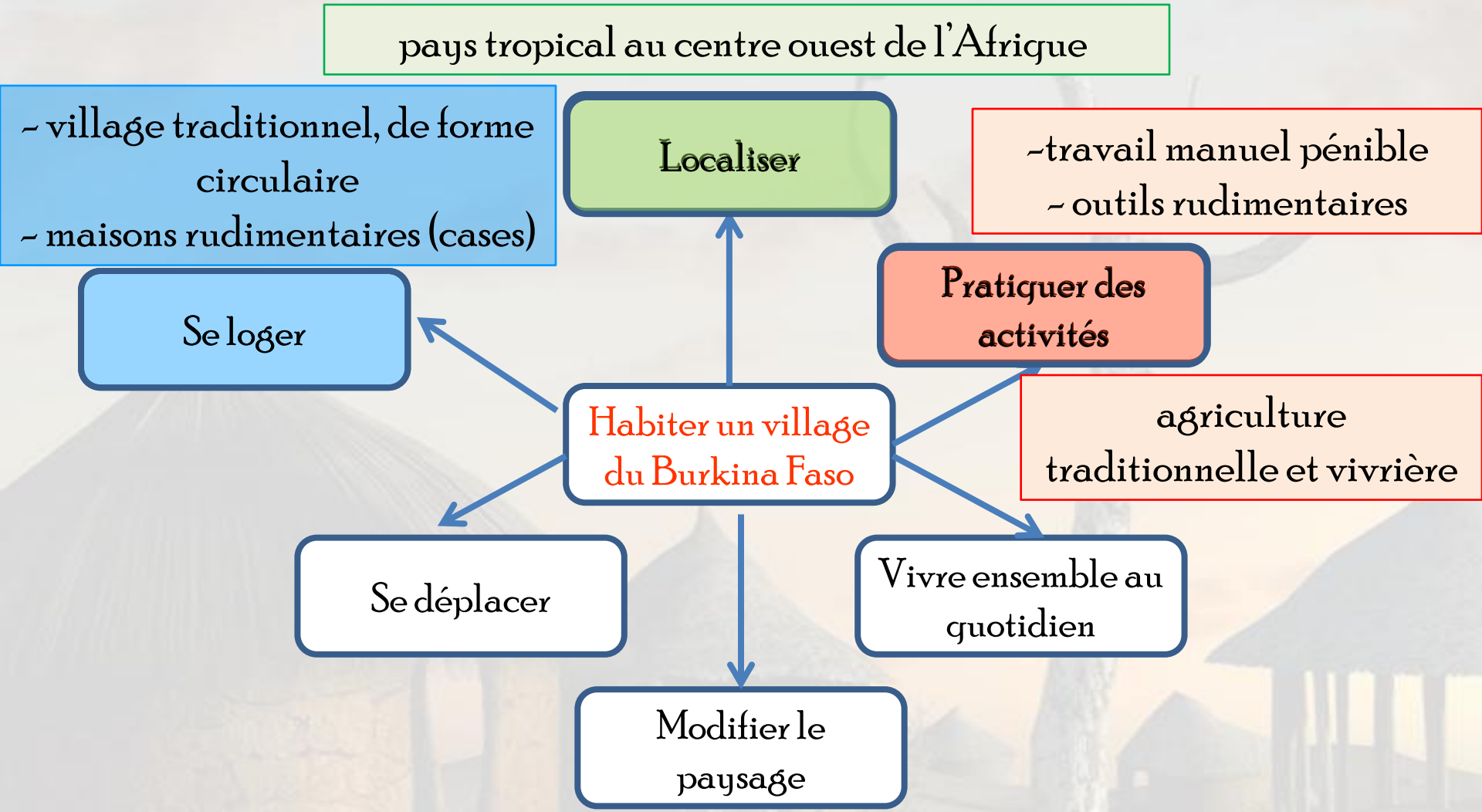
pays tropical au centre ouest de l'Afrique
~ village traditionnel, de forme circulaire
~ maisons rudimentaires (cases)
Localiser
~travail manuel pénible
~ outils rudimentaires
Se loger
Pratiquer des activités
Habiter un village du Burkina Faso
agriculture traditionnelle et vivrière
Se déplacer
Vivre ensemble au quotidien
Modifier le paysage

5. Repérez les routes : à votre avis, comment les hommes peuvent-ils se déplacer dans ce paysage ?

Les routes sont peu larges et en terre : les villageois, par manque de moyen également, se déplacent à pied ou à vélo.

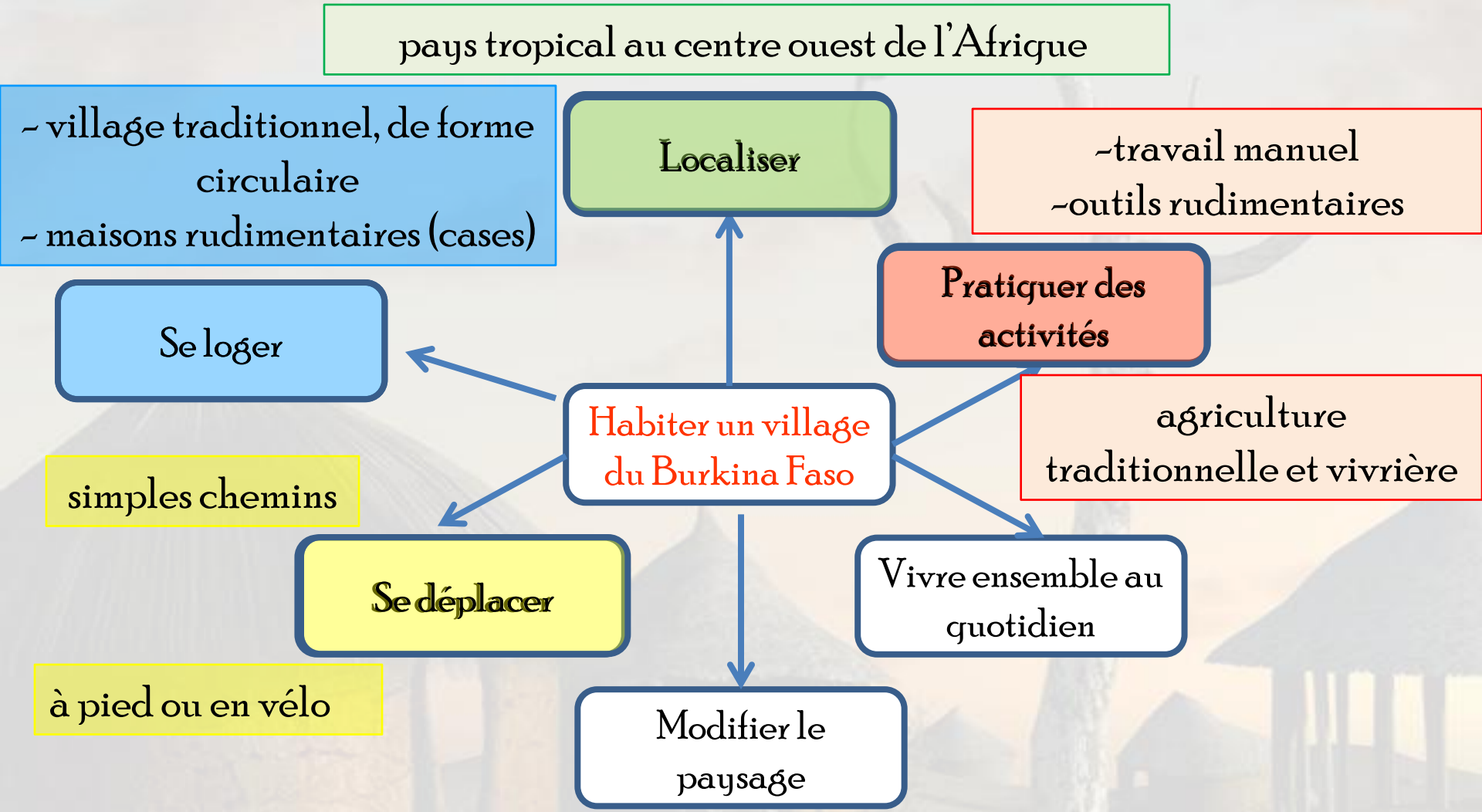
pays tropical au centre ouest de l'Afrique
~ village traditionnel, de forme circulaire
~ maisons rudimentaires (cases)
Localiser
~travail manuel
~outils rudimentaires
Pratiquer des activités
Se loger
Habiter un village du Burkina Faso
agriculture traditionnelle et vivrière
simples chemins
Se déplacer
Vivre ensemble au quotidien
à pied ou en vélo
Modifier le paysage

6. Repérez les différents éléments du paysage pour construire la légende du croquis

Croquis d'un espace agricole en Afrique

le village

champs temporaires

savane

champs permanents

chemins

Quelle vie dans ces campagnes?

7. Où sont ces femmes ? Que font-elles ? Avec quels ustensiles ?



Ces femmes sont dans leur village et broient du mil à l'aide d'un pilon et d'un mortier

Marché de Banfora.

8. Que peut-on y trouver ?

Sur ce marché, on y vend essentiellement des céréales, principalement du mil.

Habiter un village du Burkina Faso

Localiser

pays tropical au centre ouest de l'Afrique

Se loger

- village traditionnel, de forme circulaire
- maisons rudimentaires (cases)

Se déplacer

simples chemins

à pied ou en vélo

Modifier le paysage

Vivre ensemble au quotidien

- absence de confort
- vie traditionnelle

Pratiquer des activités

agriculture traditionnelle et vivrière

- travail manuel pénible
- outils rudimentaires

9. Les hommes ont-ils beaucoup transformé ce paysage ?

(recopiez ces phrases et tentez de trouver les mots manquant)

Pour créer des champs proches ,les paysans peuvent incendier des parcelles, ce qui les fertilise. C'est l'agriculture sur brûlis.

Ils laissent également les champs en jachère un an sur trois pour les fertiliser.

Habiter un village du Burkina Faso

Localiser

pays tropical au centre ouest de l'Afrique

Se loger

- village traditionnel, de forme circulaire
- maisons rudimentaires (cases)

Se déplacer

simples chemins

à pied ou en vélo

Modifier le paysage

un paysage rural faiblement transformé par l'homme (brulis, jachère)

Vivre ensemble au quotidien

- absence de confort
- vie traditionnelle

Pratiquer des activités

agriculture traditionnelle et vivrière

- travail manuel pénible
- outils rudimentaires

Dans les campagnes peu peuplées des pays pauvres :

→ il y a encore beaucoup d'agriculteurs car il faut nourrir les familles avec une agriculture vivrière

→la vie, difficile, s'organise autour du village

→la mauvaise qualité des transports renforce l'isolement.

Les agriculteurs tentent alors une agriculture commerciale *(comme celle du coton).*

Mais souvent les jeunes quittent les campagnes pour chercher de meilleures conditions de vie en ville : c'est l'exode rural.

– Étude de cas n°2 –

Habiter les Grandes Plaines américaines.

Habiter les Grandes plaines américaines

Compléter le tableau ci-dessous à l'aide du DOSSIER DOCUMENTAIRE n°2

Localise l'espace étudié (Quel continent ? Quel état ? Quelle zone géographique ?	Doc. A et B	
Un espace faiblement peuplé		
Donne des chiffres montrant que cet espace est faiblement peuplé	Doc.C	
Décris le paysage (forme des champs, emplacement des fermes ...)	Docs. 1, 2 et 3	
Où Alexa va-t-elle à l'école ? Combien de temps met-elle pour s'y rendre ?	Doc.4	
Quel transport utilise-t-elle ? Comment la campagne est-elle reliée à la ville ?	Doc.4	
Relève les activités possibles à Felton (regarde la légende)	Doc. 3	
Pourquoi l'Iowa, malgré son coté ennuyeux est-il un endroit où « il fait bon vivre » ?	Doc.1	
Un mode de vie centré sur l'agriculture		
Pourquoi peut-on dire que les fermiers travaillent de façon moderne ?	Doc.6	
Pourquoi peut-on dire que les fermiers travaillent de façon connectée ?	Doc.5	
Comment les grandes plaines sont-elles reliées aux villes et au monde ? (regarde la légende)	Doc.7	
A quelle occasion les fermiers se rendent-ils en ville ?	Doc.8 et 9	
Quelles sont les conséquences de l'étalement des villes ?	Doc.8	

Complétez la fiche ci-contre en vous aidant du DOSSIER DOCUMENTAIRE n°2 *(à retrouver sur École Directe et sur le site d'Histoire Géographie)*

Localise l'espace étudié (Quel continent ? Quel état ? Quelle zone géographique ?	Doc. A et B	Amérique du Nord – Nord des États-Unis - région des Grandes Plaines
Un espace faiblement peuplé		
Donne des chiffres montrant que cet espace est faiblement peuplé	Doc.C	20 habitants/km²
Décris le paysage (forme des champs, emplacement des fermes ...)	Docs. 1, 2 et 3	Vastes champs de formes géométriques *(openfield)* et fermes isolées *(habitat dispersé)*
Où Alexa va-t-elle à l'école ? Combien de temps met-elle pour s'y rendre ?	Doc.4	Elle va à l'école dans la grande ville voisine. Le trajet dure une heure
Quel transport utilise-t-elle ? Comment la campagne est-elle reliée à la ville ?	Doc.4	Elle utilise le bus. Ville et campagne sont reliées par des routes en graviers.
Relève les activités possibles à Felton (regarde la légende)	Doc. 3	Il y a un bar-restaurant, un café, une superette
Pourquoi l'Iowa, malgré son coté ennuyeux est-il un endroit où « il fait bon vivre » ?	Doc.1	Balades, granges pour danser *(barn dance)*, musées, ...

Un mode de vie centré sur l'agriculture		
Pourquoi peut-on dire que les fermiers travaillent de façon moderne ?	Doc.6	Agriculture très modernisée ce qui permet à très peu d'agriculteurs de cultiver d'immenses espaces.
Pourquoi peut-on dire que les fermiers travaillent de façon connectée ?	Doc.5	Ils utilisent internet pour travailler.
Comment les grandes plaines sont-elles reliées aux villes et au monde ? (regarde la légende)	Doc.7	À Chicago se trouve la Bourse mondiale des céréales. Les voies ferrées relient les grandes plaines aux ports pour exporter les produits.
A quelle occasion les fermiers se rendent-ils en ville ?	Doc.8 et 9	-Pour vendre les produits agricoles -Ils vont aux foires agricoles
Quelles sont les conséquences de l'étalement des villes ?	Doc.8	Le prix des terres agricoles augmentent

Dans les campagnes peu peuplées des pays riches, il y a de moins en moins d'agriculteurs car, dans les grandes exploitations, les techniques utilisées sont modernes et les rendements élevés. (= agriculture productiviste)

Ces espaces sont isolés mais les moyens de transports donnent accès à la ville (malgré des distances importantes parfois) et les nouvelles technologies les relient au monde . La vie est ainsi facilitée.

au centre des États-Unis/Grandes Plaines

Habiter un espace agricole aux USA

Localiser

Se loger

village ou fermes isolées

Pratiquer des activités

agriculture mécanisée et spécialisée, commerciale

main d'œuvre peu nombreuse

Se déplacer

en voiture, en bus

des axes modernes reliés aux villes

Vivre ensemble au quotidien

~échanges avec les nouvelles technologies
~se retrouver pour les fêtes / foires
~relations avec la ville (école/ commerce...)

Modifier le paysage

un paysage rural transformé par l'homme en de vastes champs géométriques