Une expansion économique qui modifie la société

Iconographie
Template : Notices astronomiques de Vienne, manuscrit de Salzbourg, IXe siècle
Clipart : Calendrier-martyrologue, manuscrit de l'abbaye de Saint-Germain-des-prés, XIIIe siècle
Polices : Calligraph421 BT / Arial / Perpetua

© Marie Desmares

Comment les campagnes d'Occident se transforment-elles entre le XIe et le XVe siècle ?

Tu vas présenter un document.

Principale compétence travaillée

présenter un document
(nature, auteur,
date, sens général, point de vue)

Présente ce document (sur la diapositive suivante).

Un seigneur entreprenant

Moi Wichmann (…) archevêque de la sainte église de Magdebourg [en Allemagne], attentif aux intérêts de l'église qui m'est confiée, j'ai racheté pour une certaine somme d'argent (…) un endroit situé près des murs de la cité, au-delà du fleuve Elbe, avec les prés et marais attenants.

Et cet endroit, avec tout ce qui en dépend, je l'ai donné à un nommé Werner (…) et à un nommé Gottfried, à condition qu'ils y établissent de nouveaux habitants, pour que soit asséchée, labourée, ensemencée et rendue féconde la terre (…) marécageuse et herbeuse, impropre à tout et ne rapportant rien, à part herbe et foin, et pour que par la suite un cens annuel provenant des cultures soit à certaines dates payé et mis à la disposition de l'archevêque.

Extrait de la Charte de Magdebourg, XIIe siècle

Présente le document (de la diapositive précédente).

Nature	
Auteur	
Date	
Sens général	
Point de vue	

Voici les éléments de réponse attendus *(ne pas noter)*.

Nature	texte écrit (charte)
Auteur	l'archevêque de Magdebourg (en Allemagne)
Date	XIIe siècle (entre 1100 et 1200)
Sens général	ce seigneur religieux décide de mettre en culture de nouvelles terres
Point de vue	il explique qu'il a pris cette initiative dans l'intérêt de l'Église qu'il dirige

Prends en note la trace écrite.

Les seigneurs prennent l'initiative de mettre en culture de nouvelles terres.

Identifie les innovations agricoles.

Les innovations agricoles des XIe-XIIe siècles

1 .....

2 .....

3 .....

4 .....

- L'assolement triennal
- La charrue
- Le collier d'épaule
- Le moulin

Voici les réponses attendues.

Les innovations agricoles des XIe-XIIe siècles

1. La charrue
2. Le collier d'épaule
3. L'assolement triennal
4. Le moulin

Magnard 2016

Prends en note la trace écrite.

Entre le XIe et le XIIe siècles, les paysans recourent à des innovations agricoles.

1. La charrue laboure plus profondément la terre.

2. Le collier d'épaule permet au cheval de tirer des charges plus lourdes.

3. L'assolement triennal permet de semer des céréales deux fois par an : des céréales d'hiver et des céréales de printemps.

4. Le moulin transforme les céréales en farine.

Tu vas travailler sur un SIG.

Principale compétence travaillée

Connaître et utiliser différents systèmes d'informations numériques (SIG, sites internet…)

Rends-toi sur le site de Géoportail, affiche la carte IGN des Plains-et-Grands-Essarts * et étudie la toponymie (entoure les noms de lieux évoquant les défrichements et explique ce qui s'est passé au Moyen Age).

La toponymie des défrichements

La toponymie actuelle (l'étude des noms de lieux) permet de retrouver des traces des défrichements du Moyen Age.

Quelques exemples :

. Cern- : défrichement circulaire

. Essart : défrichement

. Plain : surface plane ou surface dénuée d'arbres

* De façon à afficher également Soulce-Cernay et Indevillers.

* Tu peux aussi afficher la carte en mode Photographies aériennes.

Voici les éléments de réponses attendus (*ne pas noter*).

La toponymie montre que les hommes ont abattu des forêts dans la région des Plains-et-Grands-Essarts (Doubs).

Les traces des défrichements aux Plains-et-Grands Essarts

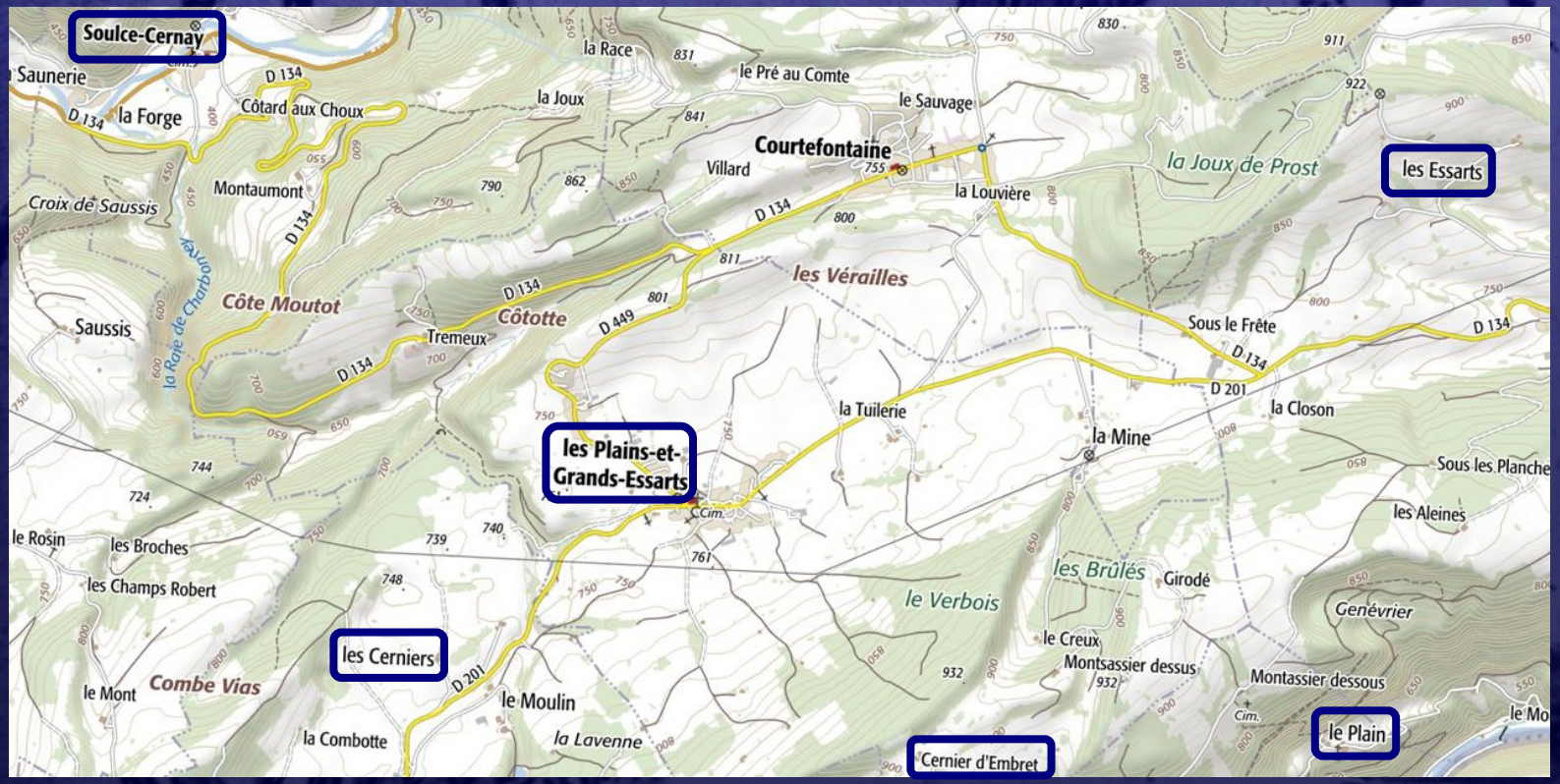

Géoportail

Que nous apprennent ces cartes ?

Les défrichements en Occident entre 1000 et 1300

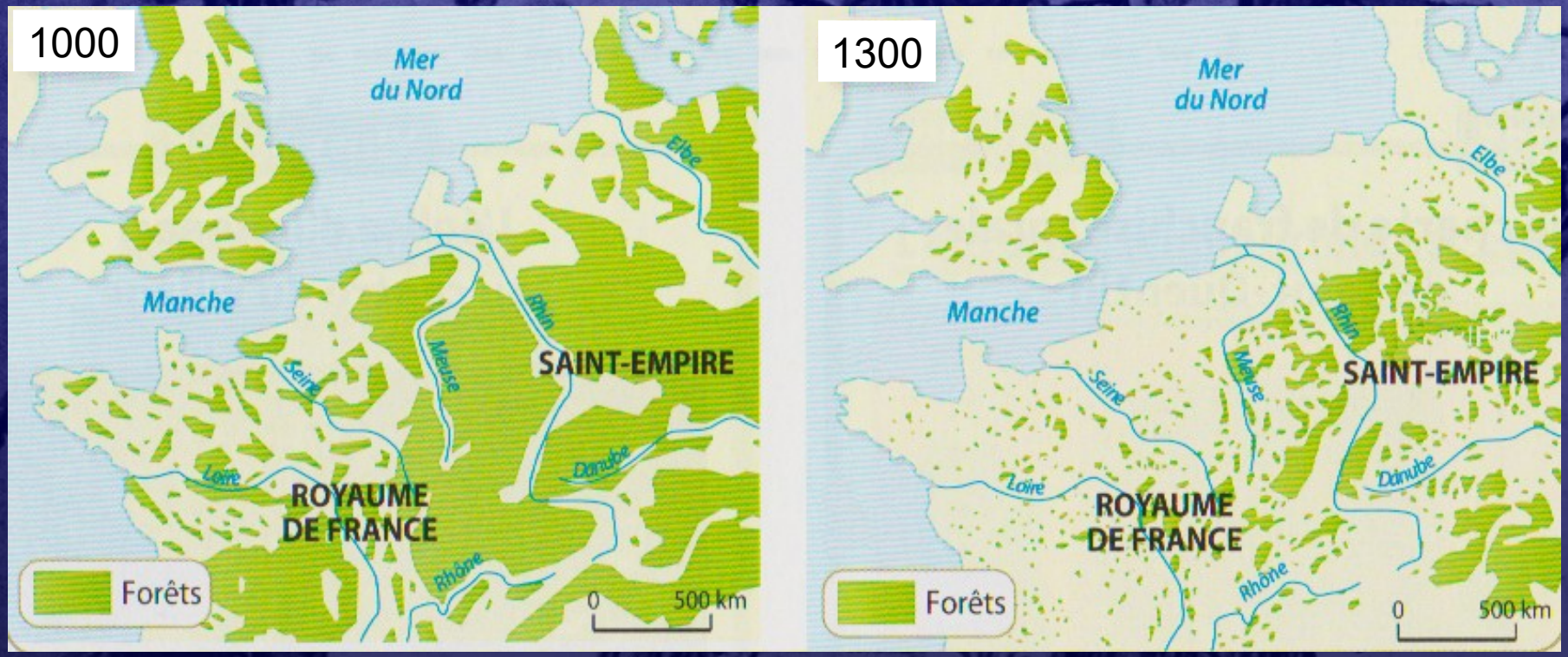

Magnard 2016

Voici les éléments de réponses attendus.

Partout en Occident, des terres sont défrichées : les hommes abattent de nombreuses forêts.

Les défrichements en Occident entre 1000 et 1300

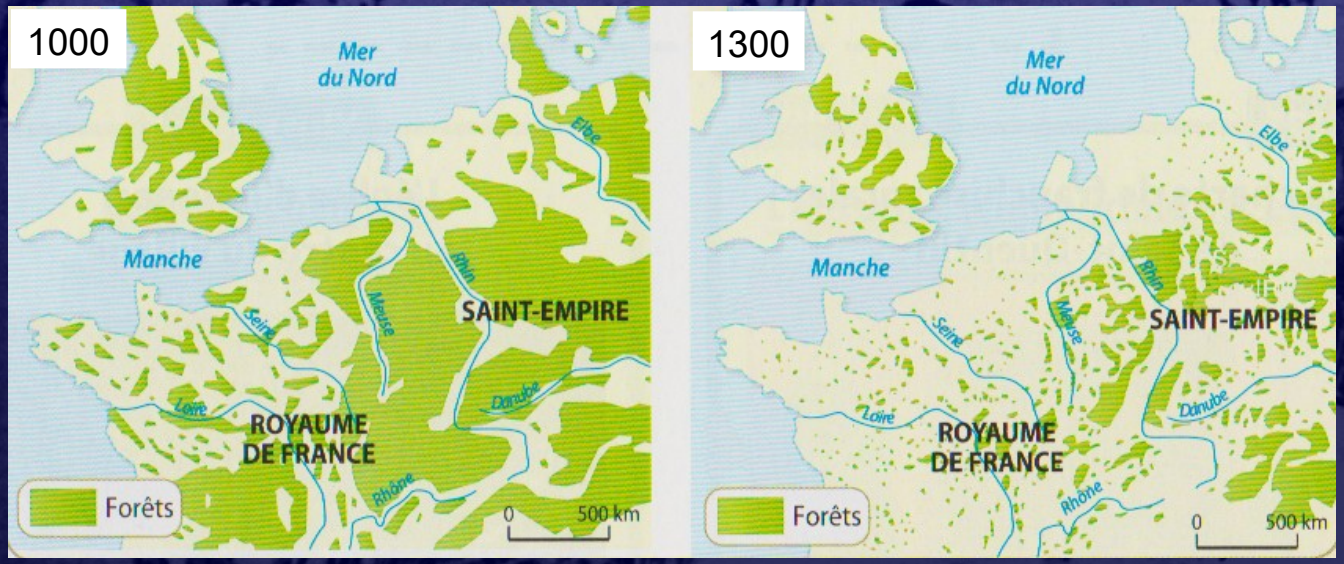

Magnard 2016

Quel espace naturel est également mis en valeur ?

Un seigneur entreprenant

Moi Wichmann (…) archevêque de la sainte église de Magdebourg [en Allemagne], attentif aux intérêts de l'église qui m'est confiée, j'ai racheté pour une certaine somme d'argent (…) un endroit situé près des murs de la cité, au-delà du fleuve Elbe, avec les prés et marais attenants.

Et cet endroit, avec tout ce qui en dépend, je l'ai donné à un nommé Werner (…) et à un nommé Gottfried, à condition qu'ils y établissent de nouveaux habitants, pour que soit asséchée, labourée, ensemencée et rendue féconde la terre (…) marécageuse et herbeuse, impropre à tout et ne rapportant rien, à part herbe et foin, et pour que par la suite un cens annuel provenant des cultures soit à certaines dates payé et mis à la disposition de l'archevêque.

Extrait de la Charte de Magdebourg, XIIe siècle

Prends en note la seconde partie de la trace écrite.

Partout en Occident, des terres sont défrichées : les hommes abattent de nombreuses forêts.

Ils assèchent aussi des marais.

Un seigneur entreprenant

Et cet endroit, avec tout ce qui en dépend, je l'ai donné à un nommé Werner (…) et à un nommé Gottfried, à condition qu'ils y établissent de nouveaux habitants, pour que soit asséchée, labourée, ensemencée et rendue féconde la terre (…) marécageuse et herbeuse, impropre à tout et ne rapportant rien, à part herbe et foin, et pour que par la suite un cens annuel provenant des cultures soit à certaines dates payé et mis à la disposition de l'archevêque.

Extrait de la Charte de Magdebourg, XIIe siècle

Quelles conséquences ces transformations ont-elles sur les paysages, la population et la société ?

Montre que les paysages des campagnes sont lentement bouleversés.

L'évolution du paysage du maar de Monchâtre (Auvergne)

developpementdurable.revues.org

Voici les éléments de réponses attendus.

Les paysages des campagnes sont lentement transformés :

- les forêts reculent et les espaces cultivés s'étendent.

L'évolution du paysage du maar de Monchâtre (Auvergne)

developpementdurable.revues.org

Observe cette vidéo.

Les paysans au Moyen Age, vidéo Canopé

Tu vas réaliser un schéma sur ton cahier de brouillon.

Principales compétences travaillées

Réaliser une production graphique, cartographique, audiovisuelle

Etablir des liens de cause à effet (causes et conséquences)

Construis un schéma pour établir des liens de cause à effet entre les innovations agricoles (XIe-XIIe siècles) et l'évolution de la population entre 1000 et 1300.

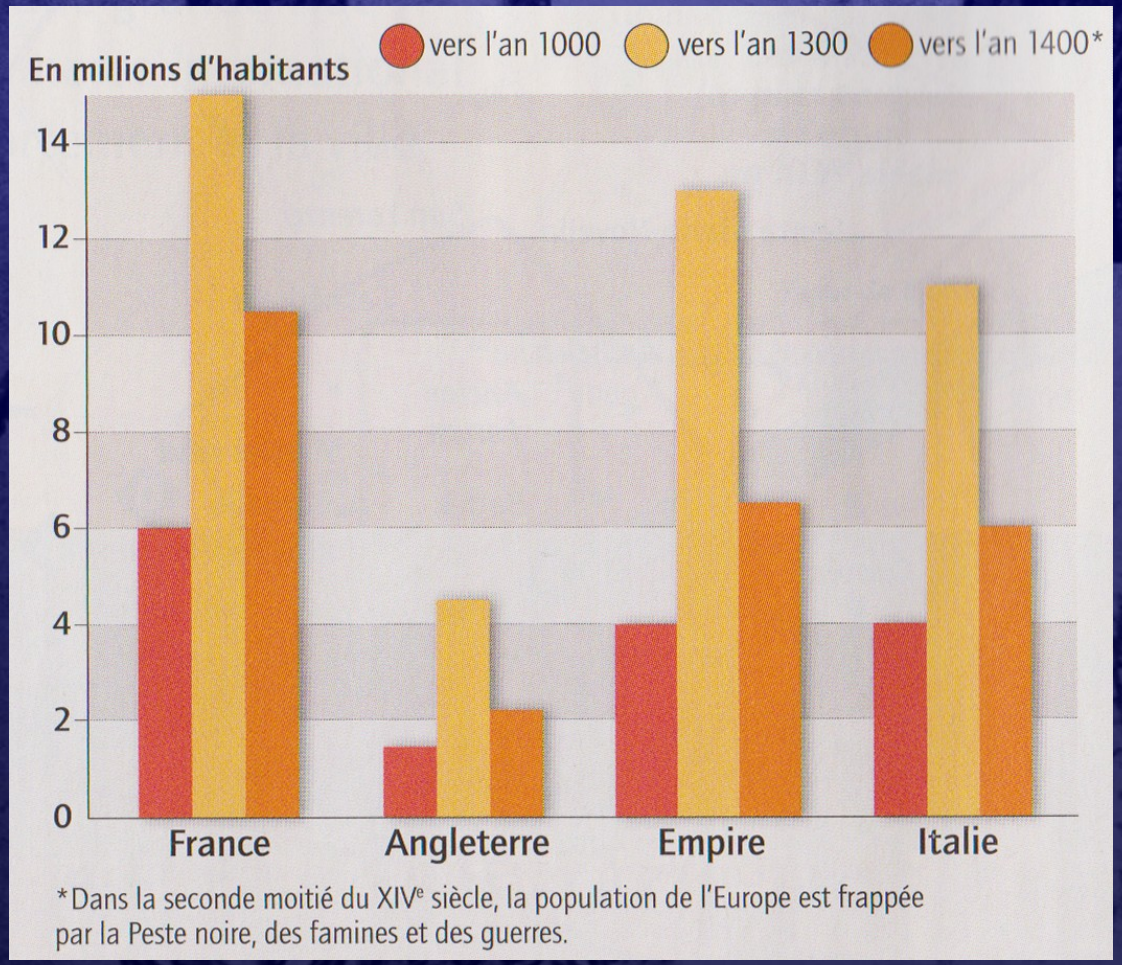

L'évolution de la population en Occident entre 1000 et 1400

Belin 2010

Voici un exemple de schéma *(ne pas noter)*.

innovations agricoles
(charrue, collier d'épaules, assolement triennal, moulin…)

↓

meilleures récoltes

↓

meilleure alimentation
meilleure santé

↓

augmentation
de la population

Voici les éléments de réponses attendus.

Les récoltes sont meilleures, ce qui améliore l'alimentation.

La population, en meilleure santé, augmente : entre le XIe et le XIIIe siècle, la population européenne est multipliée par deux. De nouveaux villages sont créés.

Aux XIVe-XVe siècles, la population diminue à cause des calamités (Grande Peste de 1348, famine, guerres).

Présente ce document (nature, auteur, date, sens général).

La charte de franchise[1] de Vaucresson, 1145

Nous voulons faire savoir (…), que moi, Suger, par la grâce de Dieu, abbé[2] de Saint-Denis (…), nous avons accordé que quiconque voudra habiter dans une ville neuve[3] que nous avons édifiée et que l'on appelle Vaucresson, puisse avoir une mesure de terre, c'est-à-dire un arpent un quart, contre douze deniers de cens[4] et soit dispensé de toute taille[4].

1. Texte précisant les avantages accordés par un seigneur à des paysans ou aux habitants d'une ville
2. Seigneur religieux qui dirige un monastère
3. Village de défrichement
4. Impôts

Voici les éléments de réponse attendus *(ne pas noter)*.

Nature	texte écrit (charte)
Auteur	l'abbé de Saint-Denis, Suger
Date	1145 (XIIe siècle)
Sens général	ce seigneur religieux demande à des paysans de défricher un lieu pour y installer un village et des champs.

Construis un tableau pour présenter les intérêts du seigneur et des paysans à fonder un village de défrichement.

Nous voulons faire savoir (…), que moi, Suger, par la grâce de Dieu, abbé[2] de Saint-Denis (…), nous avons accordé que quiconque voudra habiter dans une ville neuve[3] que nous avons édifiée et que l'on appelle Vaucresson, puisse avoir une mesure de terre, c'est-à-dire un arpent un quart, contre douze deniers de cens[4] et soit dispensé de toute taille[4].

1. Texte précisant les avantages accordés par un seigneur à des paysans ou aux habitants d'une ville
2. Seigneur religieux qui dirige un monastère
3. Village de défrichement
4. Impôts

La charte de franchise[1] de Vaucresson, 1145

Voici les éléments de réponses attendus.

Les intérêts du seigneur	Les intérêts des paysans
- Le seigneur dispose de paysans pour cultiver les terres de sa réserve (corvées) - Les paysans paient des redevances et des banalités au seigneur.	- Les paysans paient moins d'impôts. - Les droits des paysans sont garantis par écrit, ce qui les protège des éventuels abus du seigneur.

Prends en note la trace écrite.

Parfois, une charte de franchise est négociée entre seigneurs et paysans : ceux-ci obtiennent des droits garantis par écrit.



La charte de franchise de Saint-Quentin, 1195

Prends en note la seconde partie de la trace écrite.

- de nombreuses abbayes sont fondées et créent de vastes seigneuries.

Des moines défricheurs

Bordas 2015

Tu vas compléter un axe chronologique.

Principale compétence travaillée

Construire des repères historiques

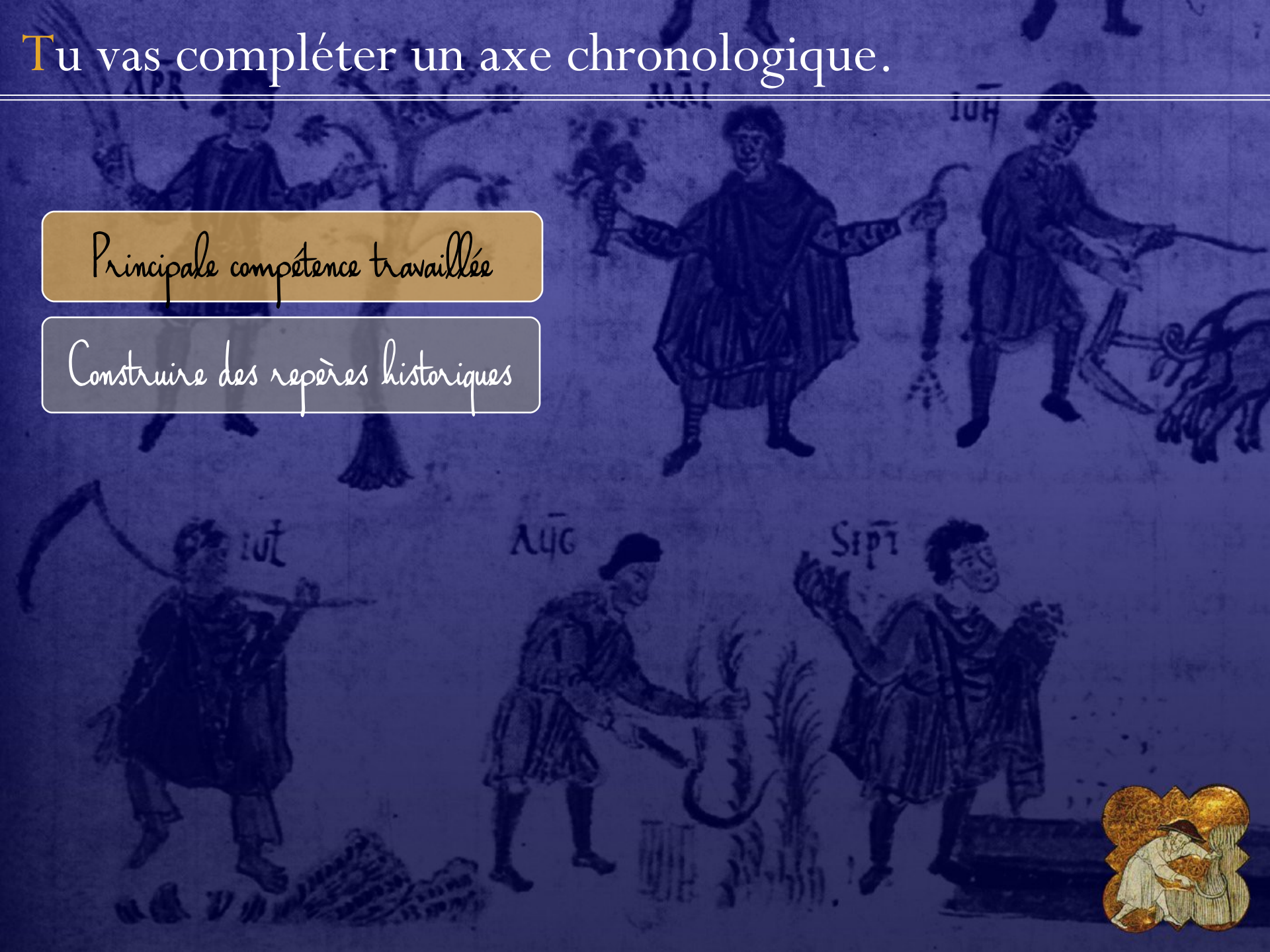

Fais le bilan en complétant cet axe chronologique.



Xe-XIe siècles	mise en place de l'ordre seigneurial
XIe-XIIIe siècles	grands défrichements formation des campagnes
milieu XIVe- milieu XVe siècles	temps des crises

Voici la correction.

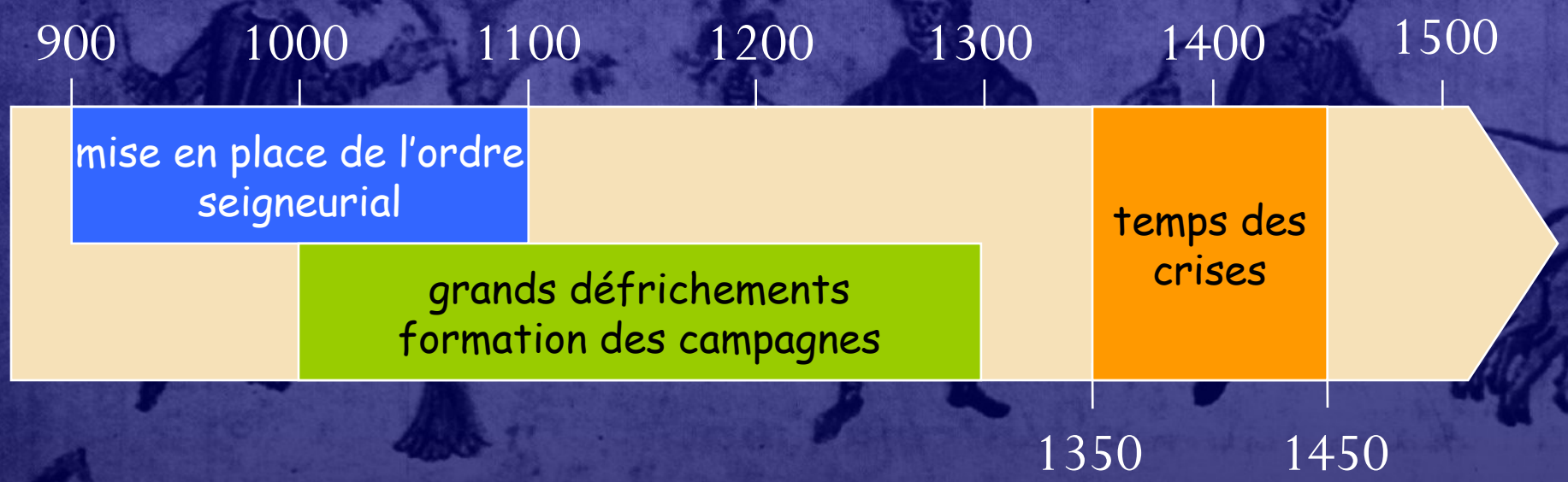

APR
MAI
IUN
IUL
AUG
SEPT