Template Carcassonne Imperor.net
Clipart Jacques Coeur Wikipedia.org
L'essor des marchands et des artisans
XIe-XVe siècles
© Marie Desmares

Quelles conséquences les transformations des campagnes ont-elles sur les activités en ville ?

Prends connaissance de ce document.

Les effets du bon
et du mauvais gouvernement,

détail des fresques d'Ambrogio Lorenzetti, Palazzo Pubblico, Sienne (Italie), 1338-1339

Observe les activités dans cette rue et identifie les hommes.

Une rue marchande au XIVe siècle (Sienne, Italie)

0

1 ..... marchand lisant son livre

2 ..... bottier

3 ..... charcutier

4

5

Voici les éléments attendus.

Une rue marchande au XIVe siècle (Sienne, Italie)

0 maçons et couvreurs

1 bottier

2 charcutier

3 marchand lisant son livre de comptes

4 paysans livrant leurs marchandises agricoles

5 maître tenant une école

A quel type de métiers appartiennent ces hommes ? Quelles activités exercent-ils ? Dans quel type de local ?

Une rue marchande au XIVe siècle (Sienne, Italie)

0 maçons et couvreurs

1 bottier

2 charcutier

Voici les éléments de réponse attendus.

Dans leurs ateliers, les artisans transforment les produits agricoles (ex : les cochons en saucissons), fabriquent des vêtements, construisent des maisons…



Dans quels lieux se déroule la vente des marchandises ?

classes.bnf.fr

La place du marché, enluminure extraite de l'ouvrage *Le Chevalier errant*, Thomas III de Saluces, vers 1400-1405

Sciences et avenir, octobre 2016

Une vendeuse de rue, gravure, *Les cris de Paris*, XVIe siècle

* fèves des marais

Voici les éléments de réponse attendus.

Les produits sont vendus dans des boutiques, sur les marchés ou dans la rue, à la criée.

Une vendeuse de rue, gravure, *Les cris de Paris*, XVIe siècle

Jusqu'où les marchands vont-ils pour aller chercher des marchandises et les vendre en ville ?

Tu vas construire la carte du grand commerce en Occident.

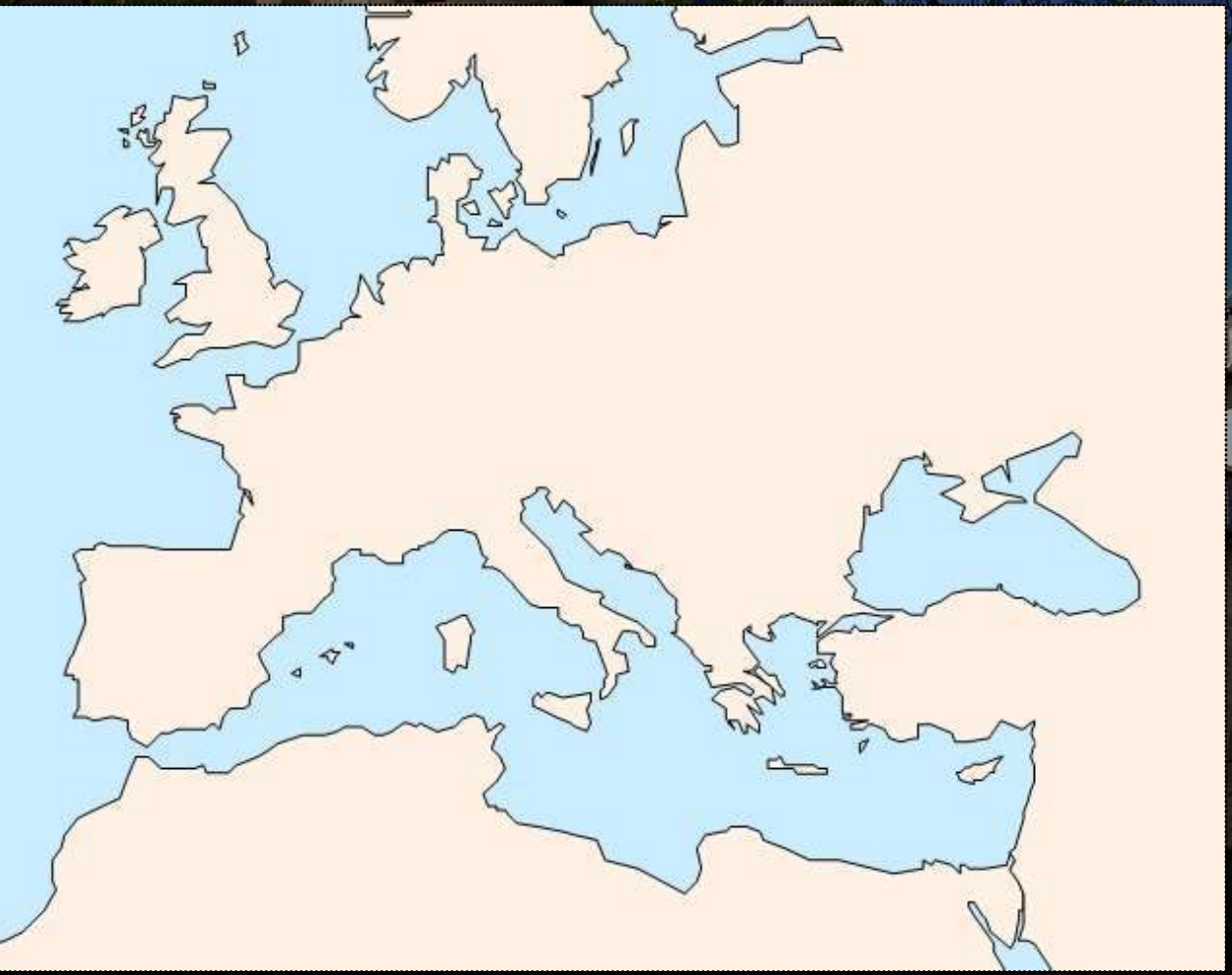

Voici la carte que tu vas étudier (page 94).

Place l'océan et les mers.

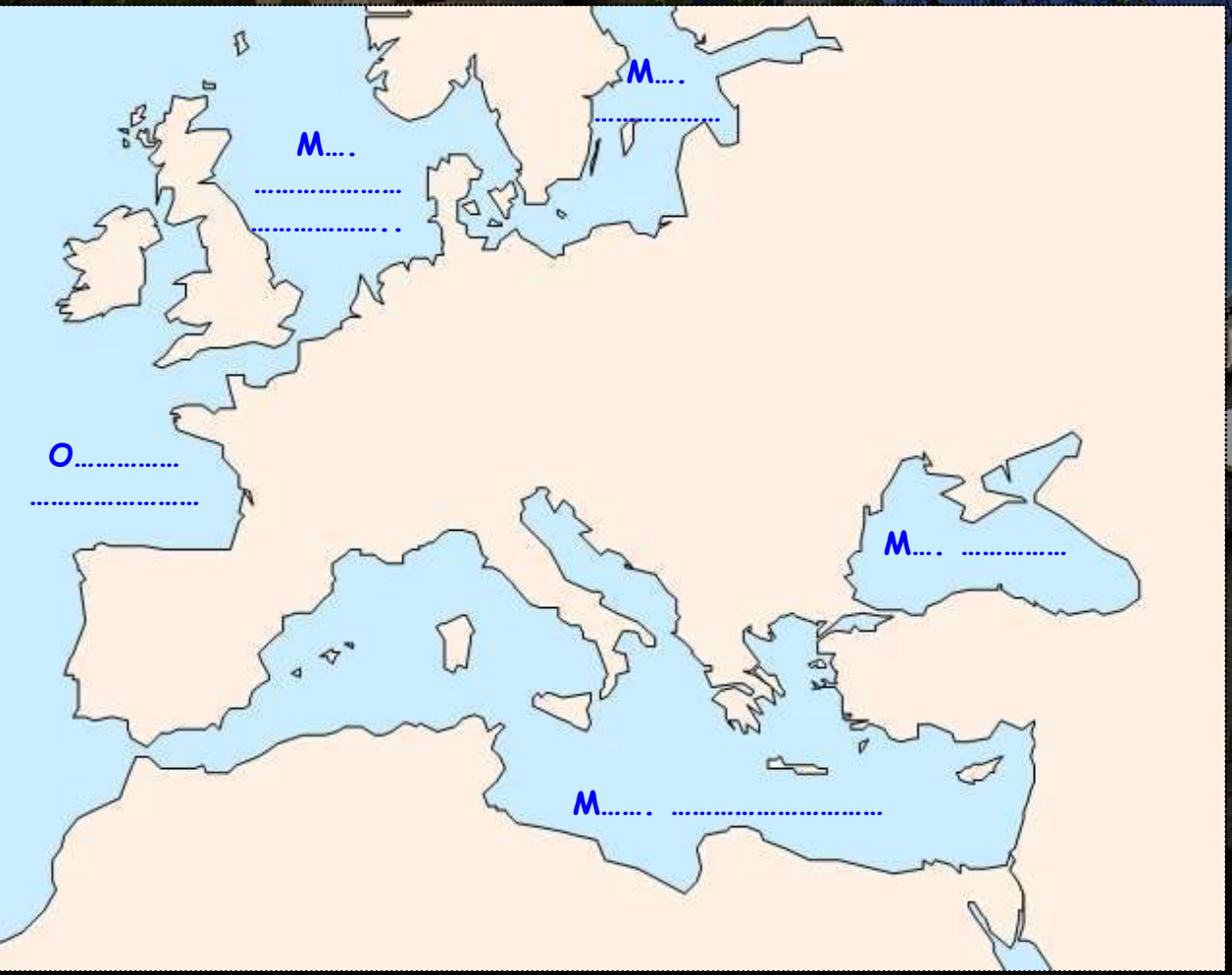

Place les grandes régions de production textile.

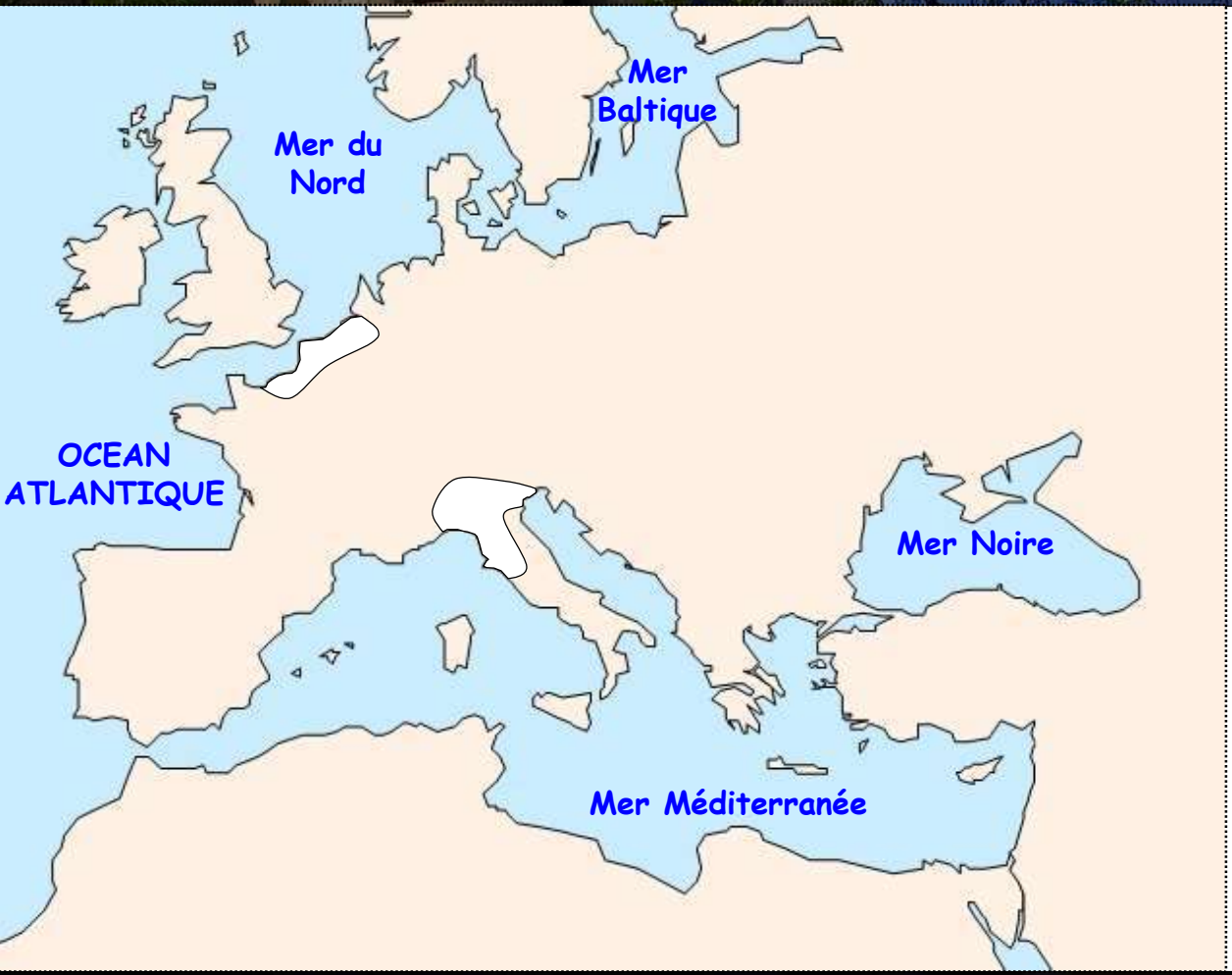

Légende

région de production textile

Nomme les grandes villes marchandes.

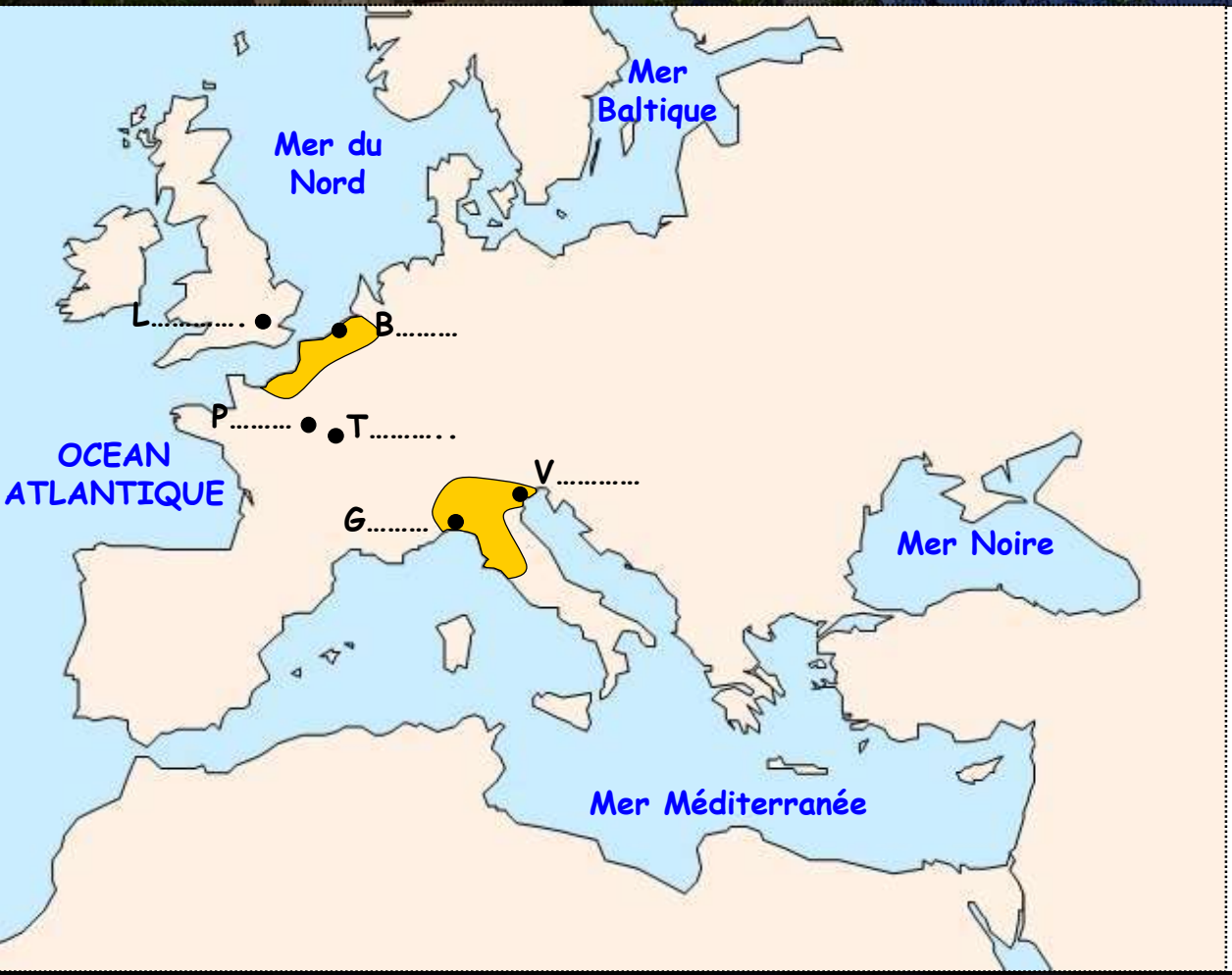

Légende

- **région de production textile**
- **grande ville marchande**

Trace les principales routes empruntées par les marchands.

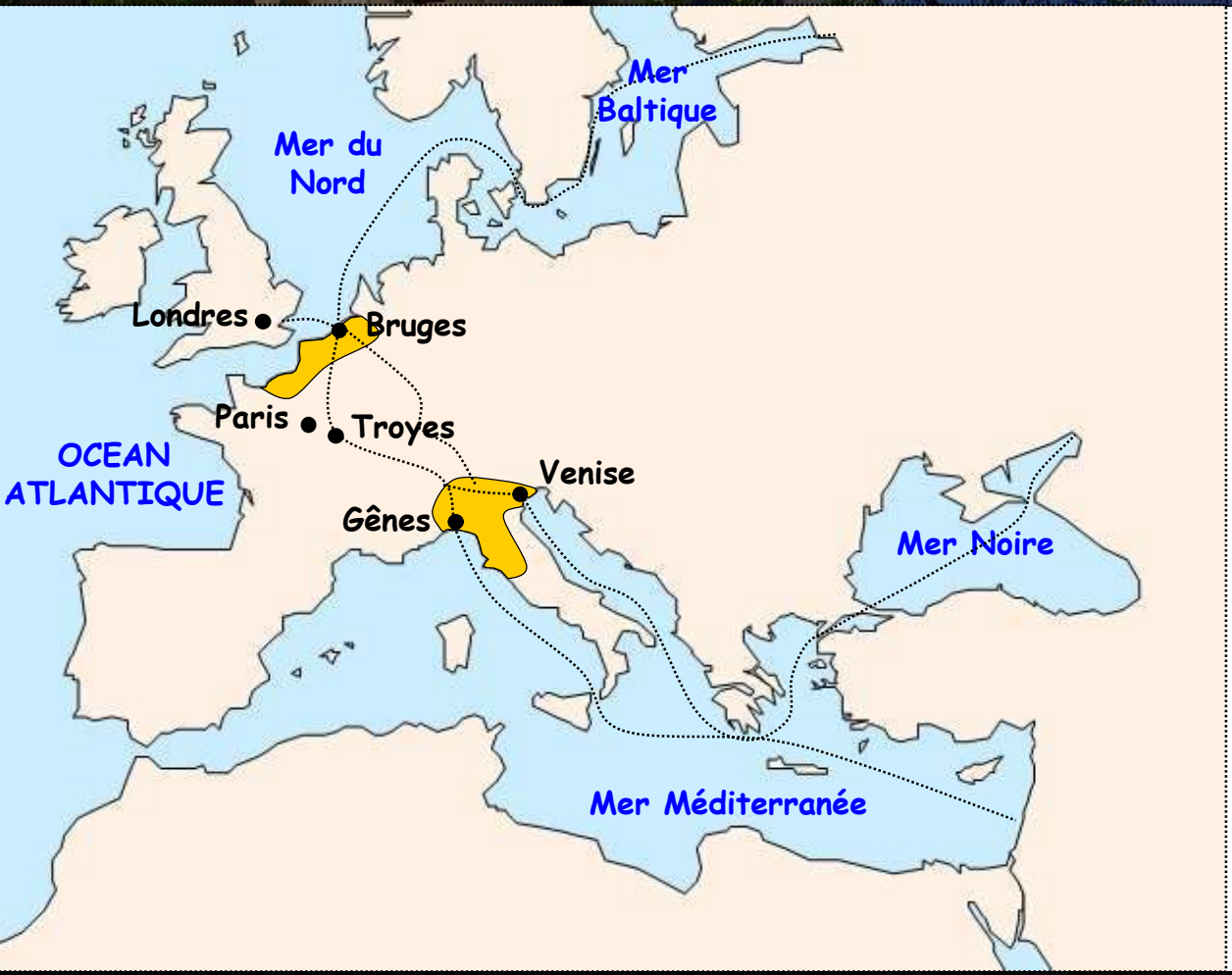

Légende

- région de production textile
- grande ville marchande
- routes terrestres
- routes maritimes

Place les principaux produits échangés.

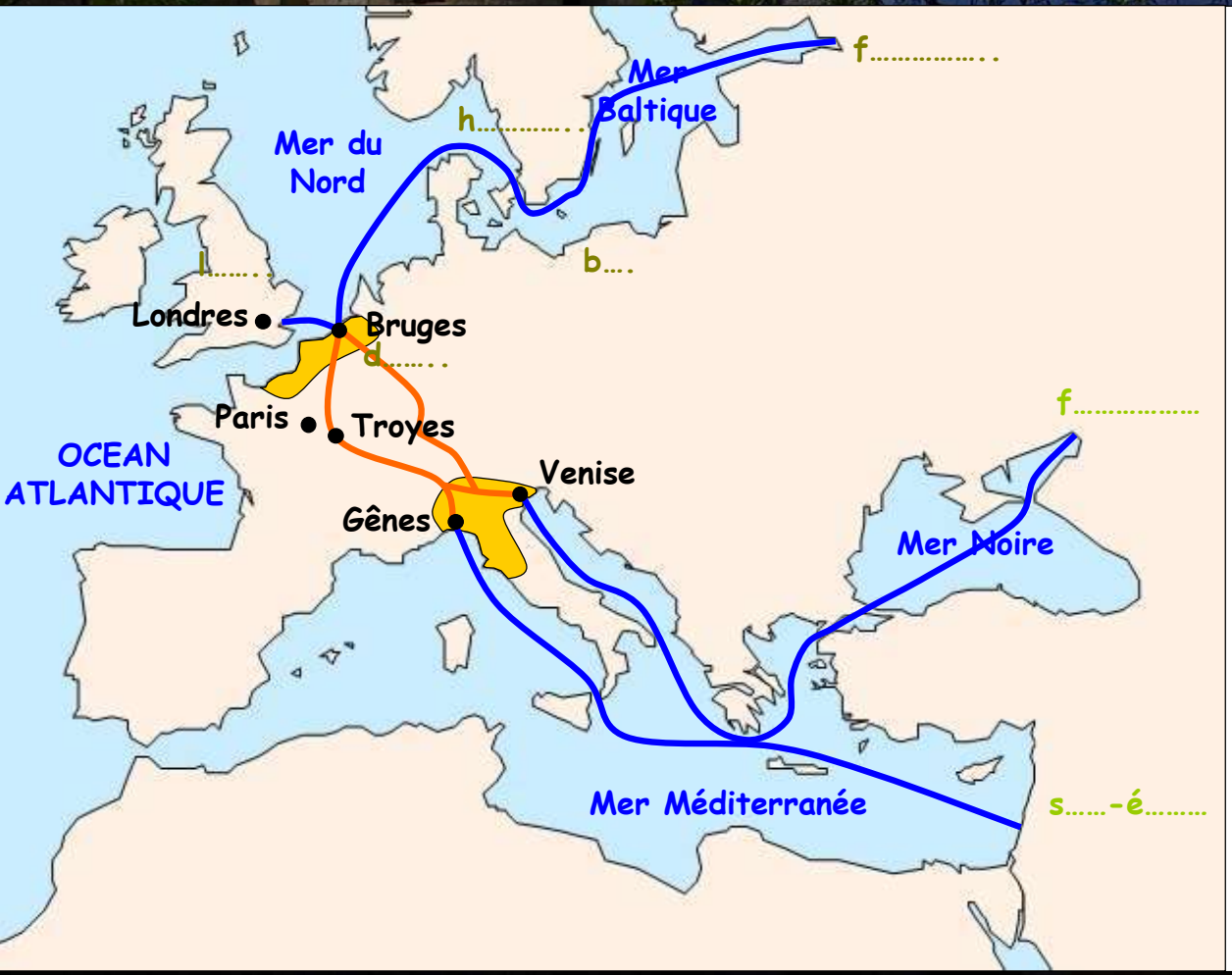

Légende

- région de production textile
- grande ville marchande
- routes terrestres
- routes maritimes
- draps produits venant d'Occident
- soie produits venant d'Orient

Place l'Occident et l'Orient.

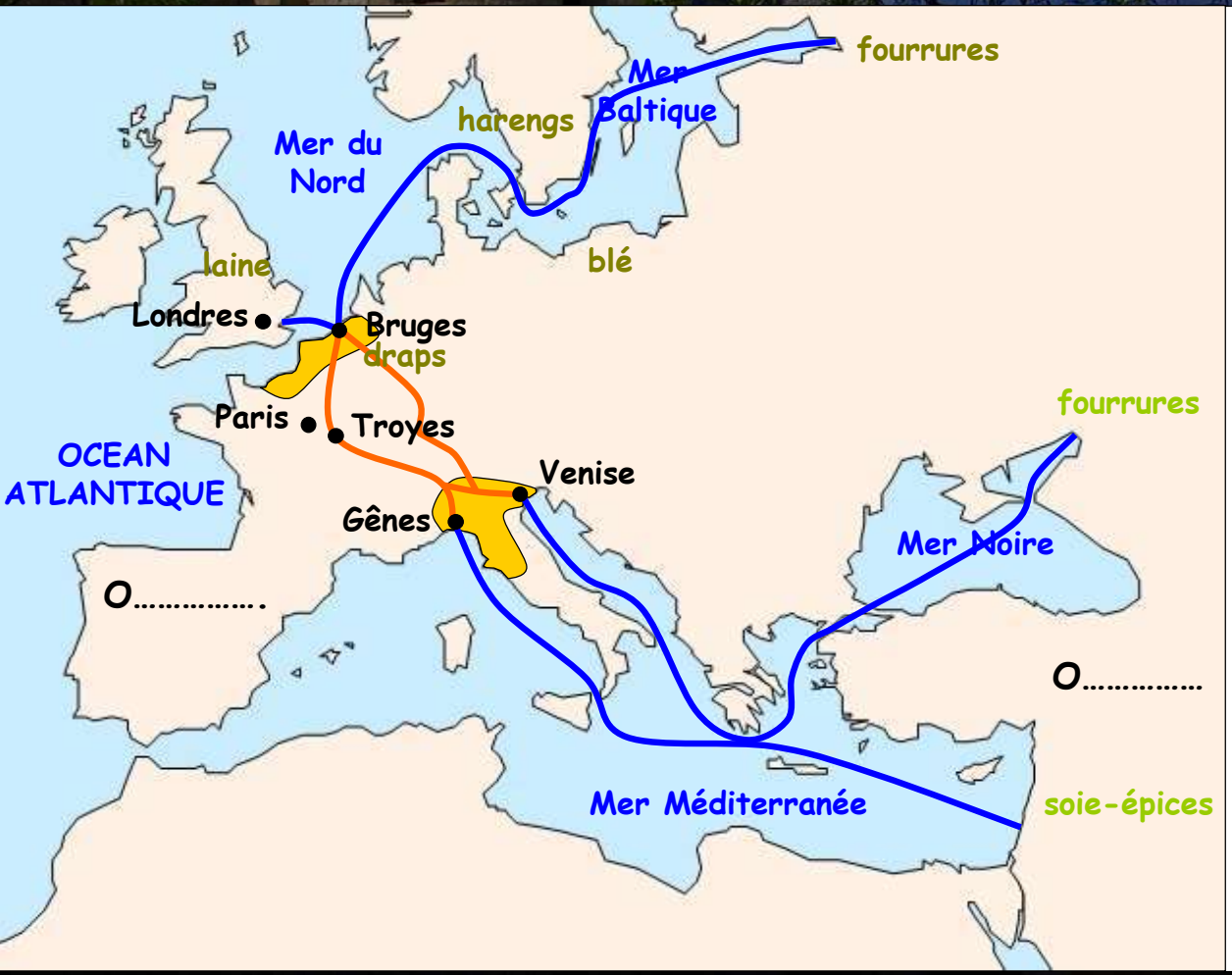

Légende

- région de production textile
- grande ville marchande
- routes terrestres
- routes maritimes
- draps produits venant d'Occident
- soie produits venant d'Orient

Donne un titre à ta carte.

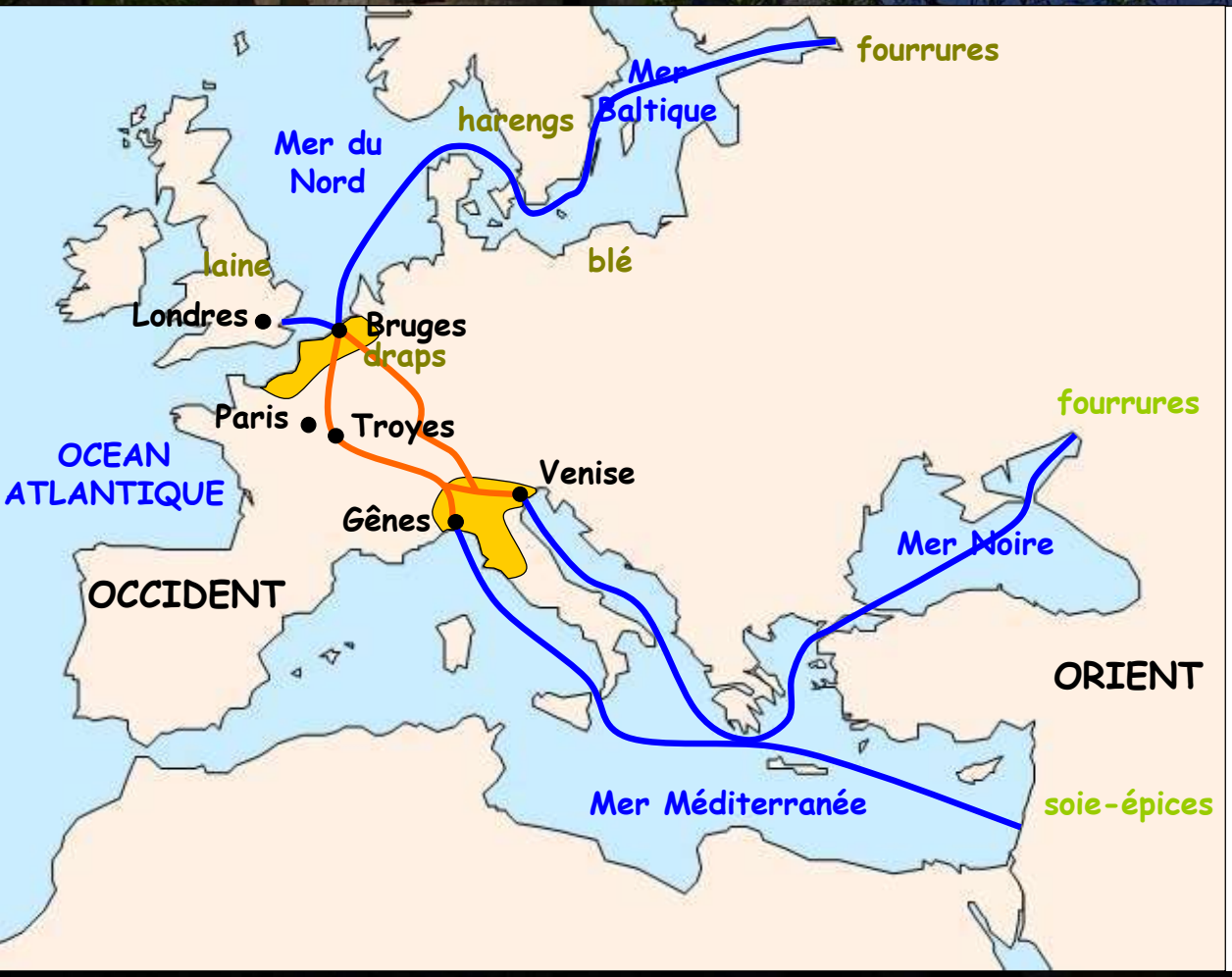

.....

.....

Légende

- région de production textile
- grande ville marchande
- routes terrestres
- routes maritimes
- draps produits venant d'Occident
- soie produits venant d'Orient

Voici la carte terminée.

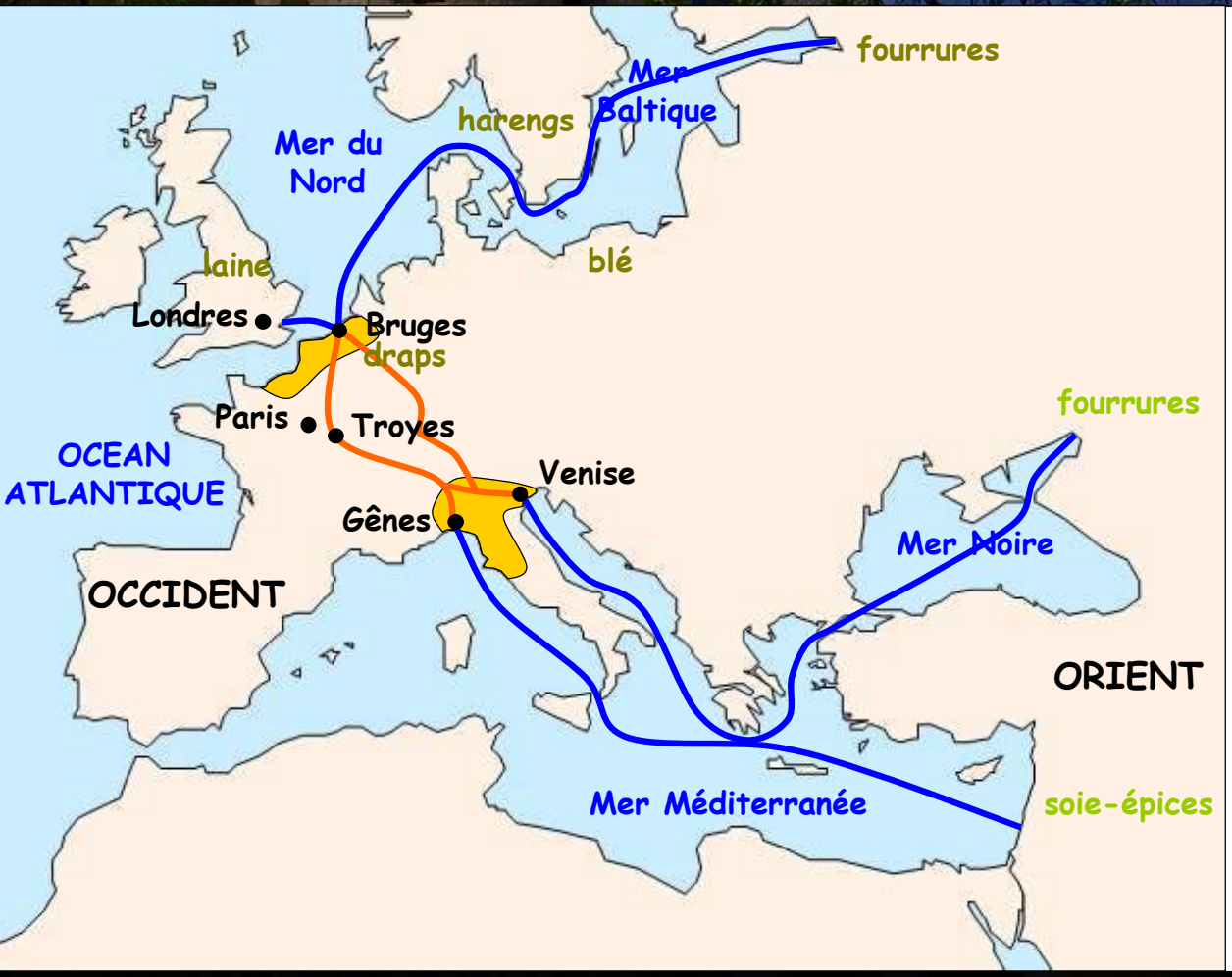

Le grand commerce en Occident au XIIIe siècle

Légende

- région de production textile
- grande ville marchande
- routes terrestres
- routes maritimes
- draps produits venant d'Occident
- soie produits venant d'Orient

Complète la trace écrite avec l'aide de ton professeur.

A partir du XIe siècle, le grand …….. se développe en Occident.

Deux grandes régions marchandes, l'…… et les ……, échangent leurs produits lors de foires, comme en …… .

Ce grand commerce enrichit les villes situées sur les routes qui les traversent.

Voici les éléments de réponse attendus.

A partir du XIe siècle, le grand commerce se développe en Occident.

Deux grandes régions marchandes, l'Italie du Nord et les Flandres, échangent leurs produits lors de foires, comme en Champagne.

Ce grand commerce enrichit les villes situées sur les routes qui les traversent.

Quelles conséquences l'essor des marchands et des artisans a-t-il sur les modes de vie en ville ?

Quels sont les aliments de base de l'alimentation en ville ? Quelles sont les différences avec la campagne ?

Les aliments de base au Moyen âge, miniatures tirées du *Tacuinum sanitatis*, traité de médecin et de diététique, XIVe siècle

Sciences et avenir, octobre 2016

Voici les éléments de réponse attendus.

En ville, la nourriture est abondante et variée.

Les bourgeois des villes ont à disposition des aliments de base de meilleure qualité qu'à la campagne : le pain au millet (frais), le poisson (souvent salé) et le porc.

Les aliments de base au Moyen âge

Prends connaissance de ces remarques de conclusion.

L'essor des XIIe-XIIIe siècles améliore les conditions de vie, mais elles restent difficiles.

- Espérance de vie à la naissance : 14 ans
- Espérance de vie à 5 ans : 35 ans
- Mortalité infantile : 25 %
- Mortalité avant 20 ans : 50 %