Christophe Colomb découvre l'Amérique

(1492)

Images
L'arrivée de Christophe Colomb
Christophe Colomb par Ghirlandaio
Police
Calligraph421 BT

© Marie Desmares

En quoi le premier voyage de Christophe Colomb ouvre-t-il la voie aux grandes découvertes ? *

* *Pour répondre à cette question, je poursuis le diaporama.*

Je lis cette présentation de Christophe Colomb.

Né à Gênes, en Italie, Christophe Colomb (1451-1506) s'installe au Portugal, où il apprend la navigation.

Christophe Colomb

www.larousse.fr

Je présente Christophe Colomb.*

* Je place le portrait dans le cercle et j'écris à la place des mots.

Voici ce qui était attendu.

1400 1450 1500 1550

Christophe Colomb

1451-1506

navigateur italien

Je surligne les éléments qui présentent le projet de Christophe Colomb (année, ville et pays de départ, commanditaires*, route empruntée, nombre de navires).

En 1492, suite aux informations données à vos Altesses, roi et reine d'Espagne, elles pensèrent m'envoyer aux Indes. Elles m'ordonnèrent de ne pas y aller par la terre, mais d'emprunter le chemin par l'ouest, par lequel nous savons que personne n'est jamais passé. Je vins au port de Palos [en Espagne], où j'équipai trois navires adaptés à cette entreprise. Je partis le 3 août 1492.

D'après le journal de bord de Christophe Colomb, 1492-1493

* personnes qui ont ordonné le voyage

Voici ce qui était attendu.

En 1492, suite aux informations données à vos Altesses, roi et reine d'Espagne, elles pensèrent m'envoyer aux Indes. Elles m'ordonnèrent de ne pas y aller par la terre, mais d'emprunter le chemin par l'ouest, par lequel nous savons que personne n'est jamais passé. Je vins au port de Palos [en Espagne], où j'équipai trois navires adaptés à cette entreprise. Je partis le 3 août 1492.

D'après le journal de bord de Christophe Colomb, 1492-1493

J'identifie les lieux importants sur ce globe terrestre et je trace une flèche pour représenter la route empruntée.



Le globe terrestre de Martin Behaïm, 1492

EUROPE ASIE (Indes) AFRIQUE Espagne

Voici ce qui était attendu.



Le globe terrestre de Martin Behaïm, 1492

J'identifie les éléments de la caravelle, un navire adapté à l'exploration des océans.

Les caravelles de Christophe Colomb

1. hauts bords
2. faible tirant d'eau
3. gouvernail d'étambot
4. voile carrée
5. voile triangulaire

Nathan 2010

Voici ce qui était attendu.

Les caravelles de Christophe Colomb

1. **hauts bords**
2. **faible tirant d'eau**
3. **gouvernail d'étambot**
4. **voile carrée**
5. **voile triangulaire**

Nathan 2010

Je repère les étapes du premier voyage de Colomb.*

Le premier voyage de Christophe Colomb

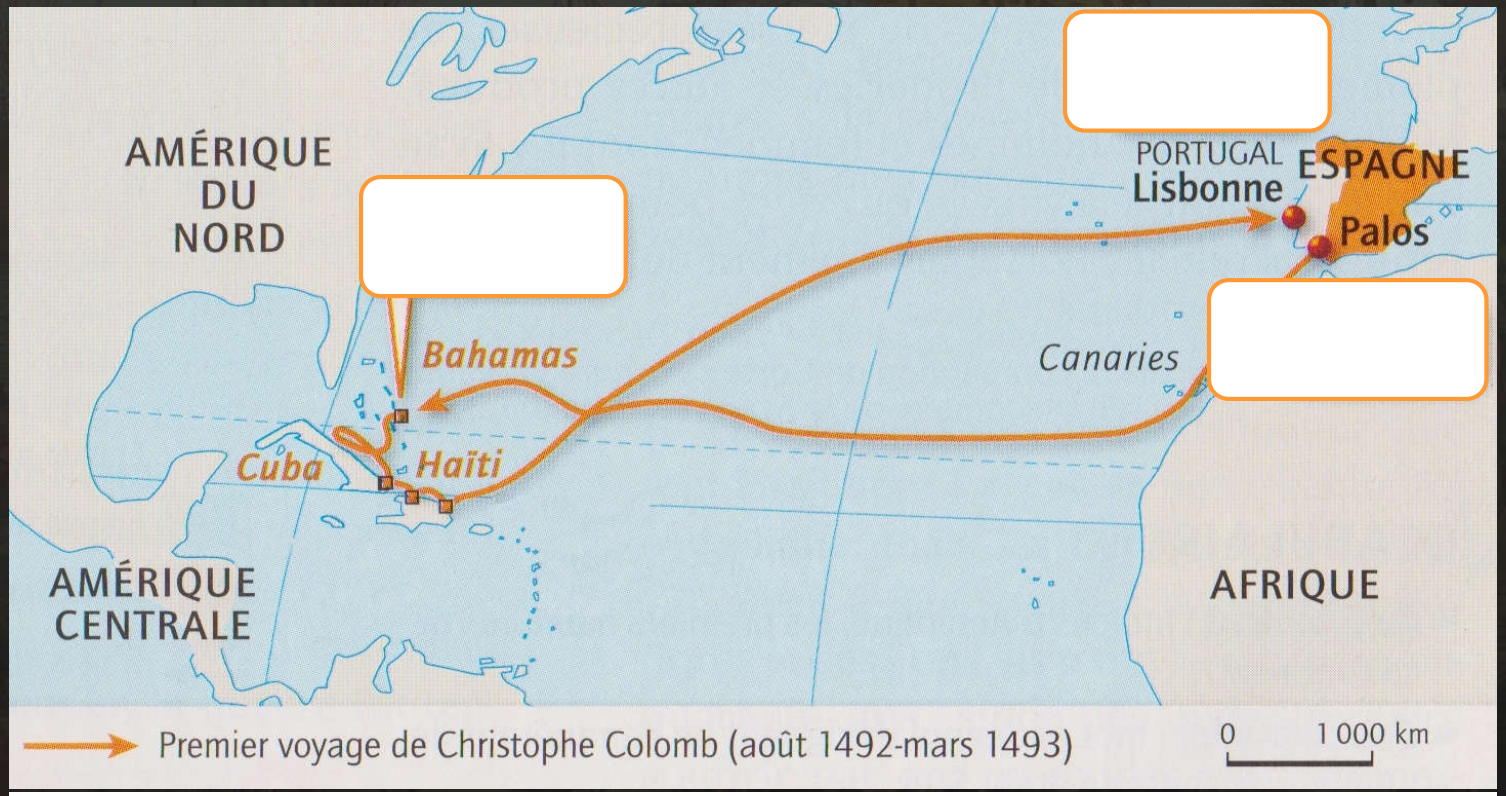

DEPART	ABORDAGE	RETOUR	OCEAN ATLANTIQUE
3 août 1492	12 octobre 1492	4 mars 1493	

Belin 2010

* Je déplace les étiquettes qui se trouvent sous la carte.

Voici ce qui était attendu.

Le premier voyage de Christophe Colomb

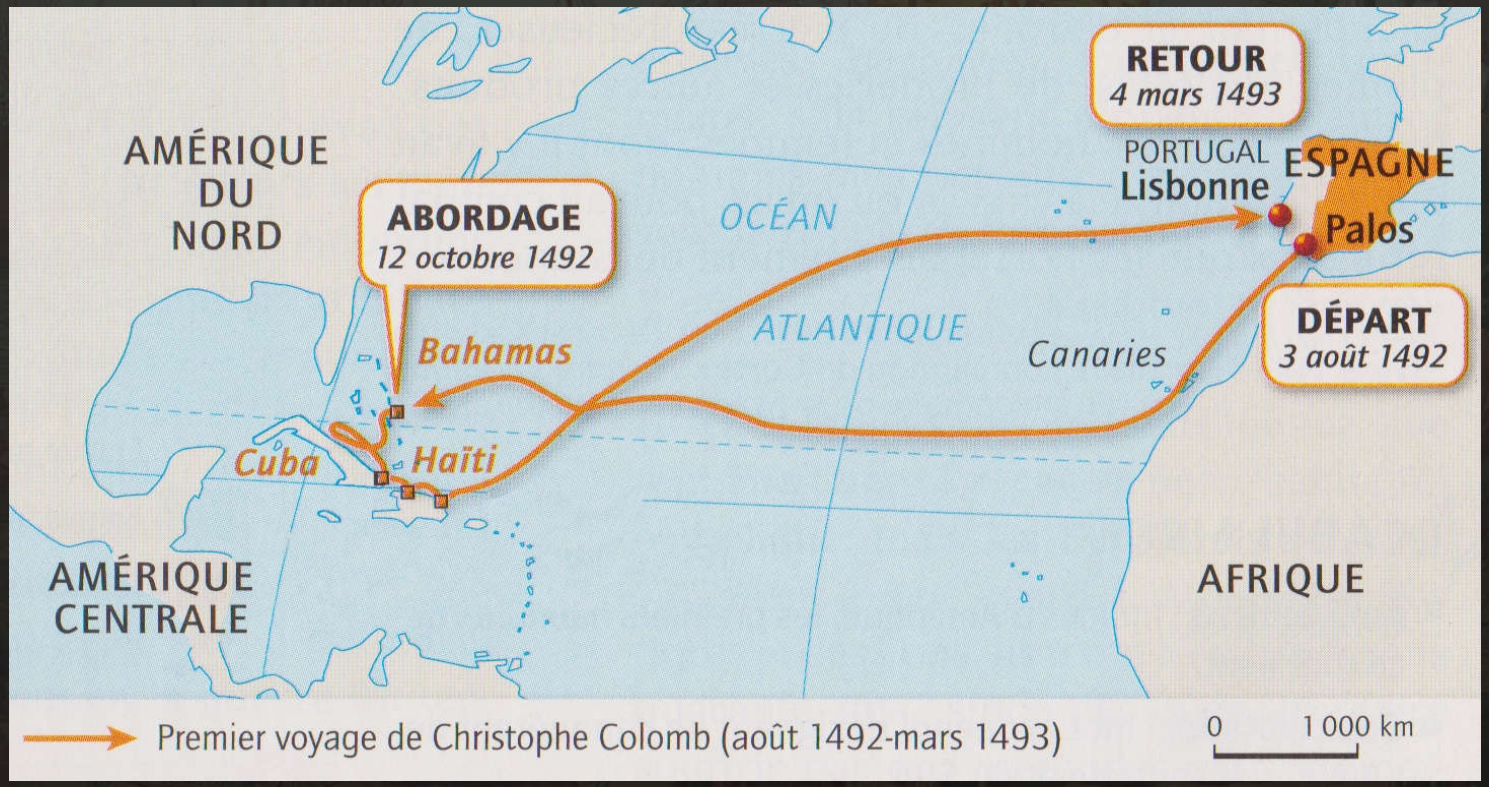

Belin 2010

Christophe Colomb pensait être arrivé au Japon.
Il n'a jamais su qu'il avait découvert l'Amérique.