6G5 | A2 | M. Desmares

HABITER LES MALDIVES / UN LITTORAL TOURISTIQUE

Je localise les Maldives.

Je complète la légende de ce croquis.

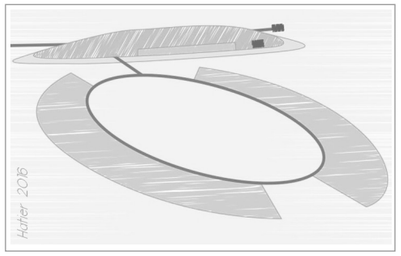

Une île-hôtel aux Maldives

- villas et bungalows
- plage
- cocoteraie
- océan et lagon
- restaurants
- jetée

J'explique quels aménagements ont été réalisés pour accueillir les touristes, toujours plus nombreux.

.....

.....

.....

.....

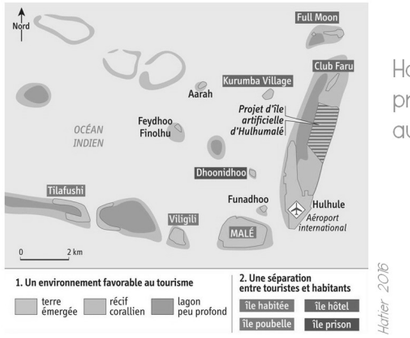

Habiter les îles proches de Malé, aux Maldives

J'écris sur l'image les atouts touristiques de ce lieu et j'encadre les noms des aménagements touristiques.

L'île-hôtel d'Anantara Kihava (atoll de Baa)



Je liste les activités que peuvent pratiquer les touristes.

.....

.....

.....

.....

.....

Je reconstitue un schéma pour expliquer le problème qui se pose aux Maldives.

Les Maldives forment un archipel de plus d'un millier d'îles, dont la superficie totale est de 300 km².
Ce littoral attire 1,2 millions de touristes chaque année, pour ses atouts touristiques (plages, soleil, chaleur, lagons limpides…).
Le gouvernement a fait le choix de séparer les habitants des touristes, afin de préserver les cultures locales.
De nombreux aménagements permettent d'accueillir les touristes (aéroport international de Malé, îles-hôtels, « île-poubelle » permettant de stocker les déchets des touristes).
Le changement climatique inquiète cependant les habitants : la montée des eaux risque de faire disparaître les Maldives. Une solution envisagée est de construire des îles artificielles.

Archipel : groupe d'îles
Atoll : île constituée de coraux
Lagon : étendue d'eau peu profonde