Des cités grecques rivales

Image / Belin 2015

© Marie Desmares

Qu'est-ce qu'une cité grecque ?

Vers 600 avant notre ère, des Grecs venus de Phocée, en Grèce d'Asie, fondent la cité de Massalia, dans le sud de la Gaule, sur la côte méditerranéenne.

Maquette de Massalia (Marseille)

Musée d'histoire de Marseille



Je place la fondation de la cité de Massalia sur la flèche chronologique.

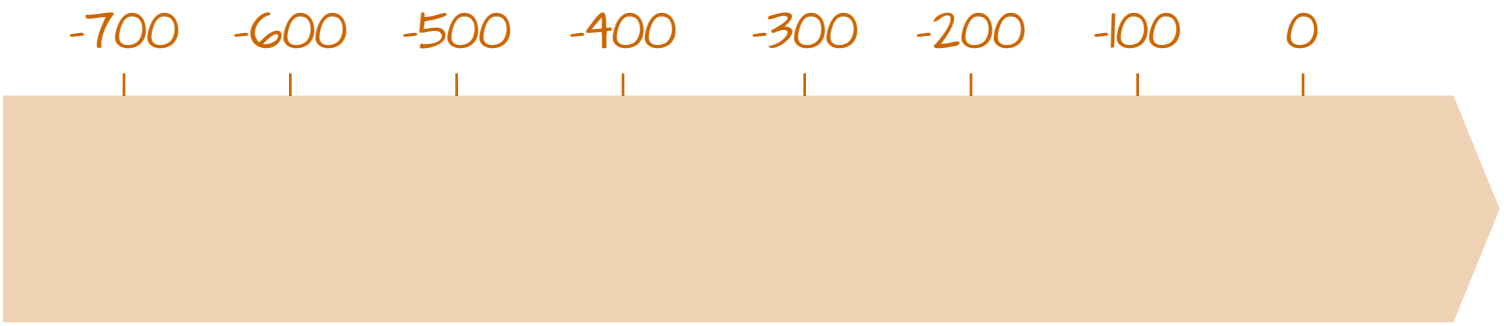

Voici ce qui était attendu.

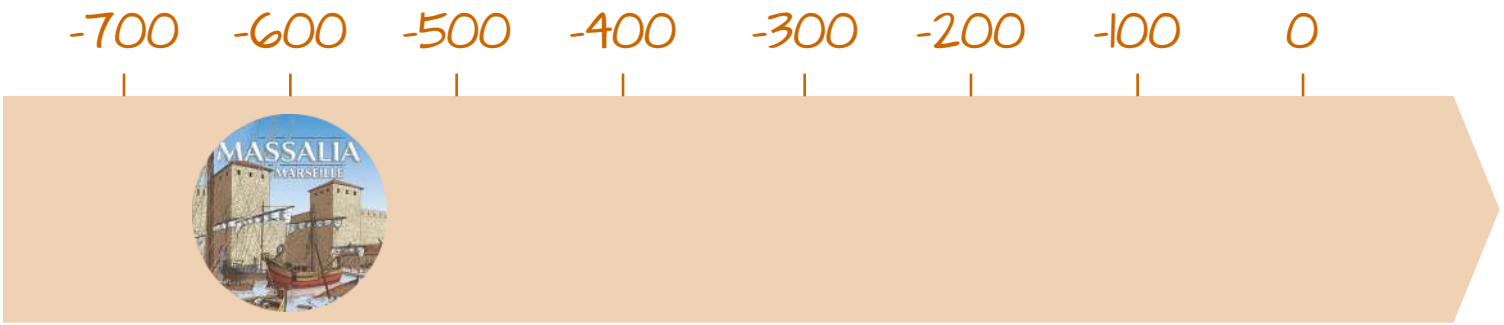



Je place approximativement la cité de Massalia sur cette carte.

Le monde grec au VIe siècle

Massalia

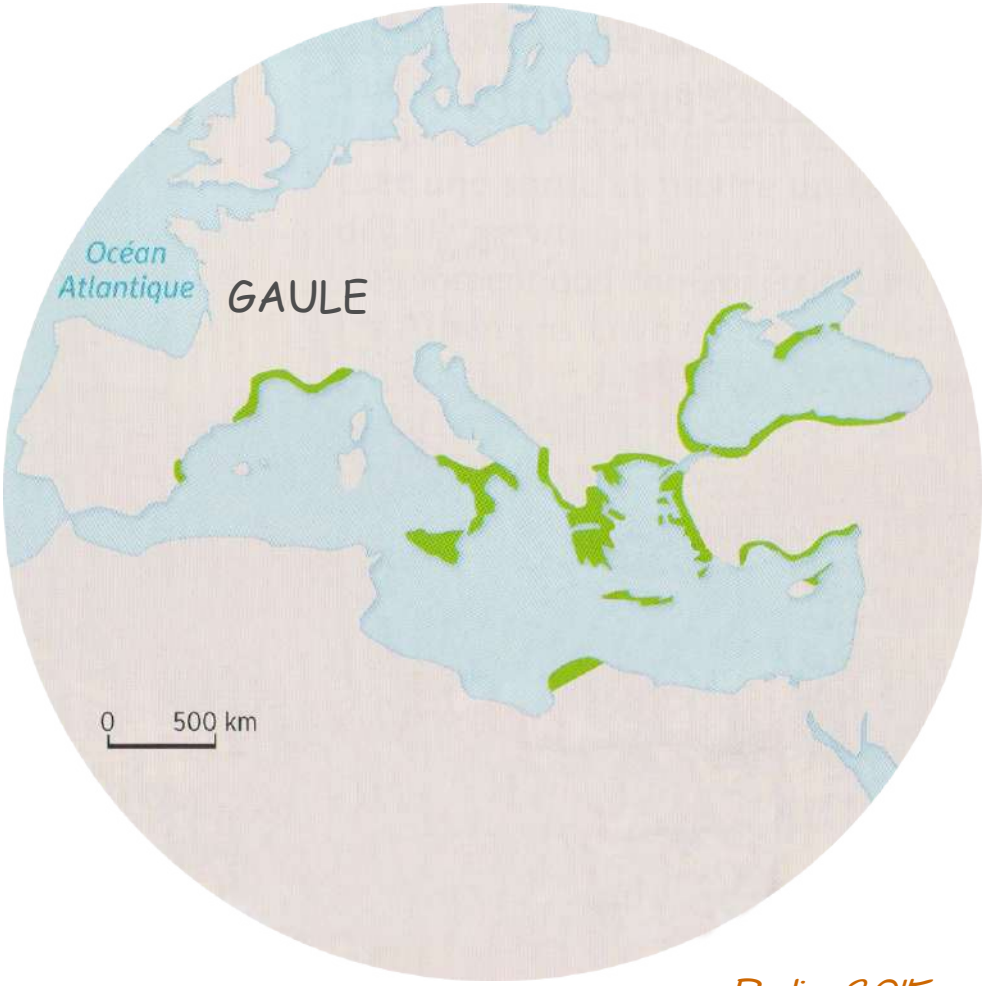

Belin 2015

Voici ce qui était attendu.

Le monde grec au VIe siècle

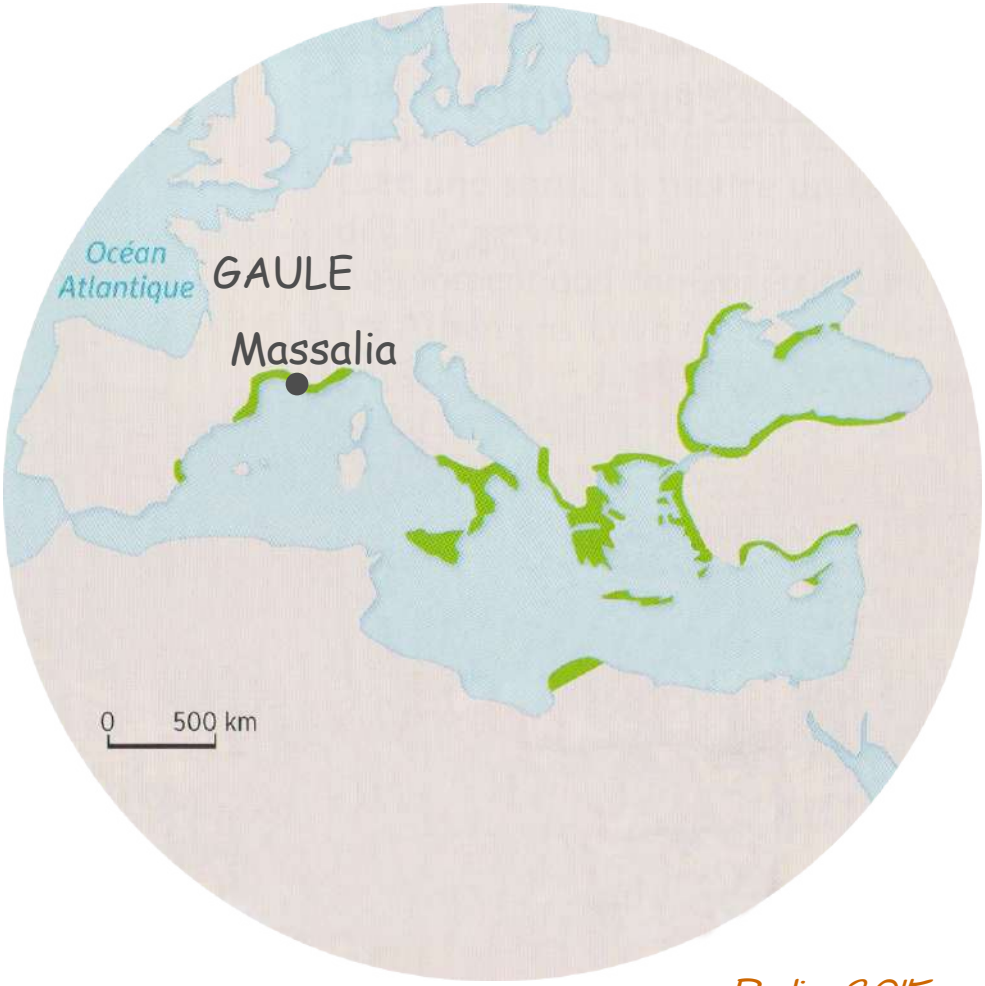

Belin 2015

Je lis ce texte.

La ville de Massalia est située sur un terrain pierreux. Son port s'étend au-dessous d'un rocher. La ville est défendue par de magnifiques remparts. L'Acropole contient deux temples. Un conseil compte 600 membres appelés timouques. Les lois sont exposées en public sur l'agora. Les Massaliotes occupent un territoire favorable à la culture de l'olivier et de la vigne, mais trop pauvre en blé. Ils sont plus confiants dans les ressources que peut leur offrir la mer et préfèrent la navigation et le commerce maritime. A force d'énergie et de bravoure, les Massaliotes ont réussi à s'emparer des campagnes qui entourent leur ville. Ils ont employé leurs forces militaires à se défendre des barbares.

D'après Strabon, Géographie, entre 20 avant notre ère et 23.



Je montre que la cité de Massalia est un <u>territoire</u> en surlignant les <u>deux éléments</u> qui le constituent.

A force d'énergie et de bravoure, les Massaliotes ont réussi à s'emparer des campagnes qui entourent leur ville. Ils ont employé leurs forces militaires à se défendre des barbares.

D'après Strabon, Géographie, entre 20 avant notre ère et 23.



Voici ce qui était attendu.

A force d'énergie et de bravoure, les Massaliotes ont réussi à s'emparer des campagnes qui entourent leur ville. Ils ont employé leurs forces militaires à se défendre des barbares.

D'après Strabon, Géographie, entre 20 avant notre ère et 23.



Je montre que la cité de Massalia est protégée par des dieux, en surlignant des bâtiments et la ville haute où ils sont construits.

La ville de Massalia est située sur un terrain pierreux. Son port s'étend au-dessous d'un rocher. La ville est défendue par de magnifiques remparts. L'Acropole[1] contient deux temples.

D'après Strabon, Géographie, entre 20 avant notre ère et 23.

1. ville haute où se trouvent les principaux temples



Voici ce qui était attendu.

La ville de Massalia est située sur un terrain pierreux. Son port s'étend au-dessous d'un rocher. La ville est défendue par de magnifiques remparts. L'Acropole contient deux temples.

D'après Strabon, Géographie, entre 20 avant notre ère et 23.



Je montre que la cité de Massalia se protège des éventuelles attaques en surlignant deux éléments.

La ville est défendue par de magnifiques remparts. (…) A force d'énergie et de bravoure, les Massaliotes ont réussi à s'emparer des campagnes qui entourent leur ville. Ils ont employé leurs forces militaires à se défendre des barbares.

D'après Strabon, Géographie, entre 20 avant notre ère et 23.



Voici ce qui était attendu.

La ville est défendue par de magnifiques remparts. (…) A force d'énergie et de bravoure, les Massaliotes ont réussi à s'emparer des campagnes qui entourent leur ville. Ils ont employé leurs forces militaires à se défendre des barbares.

D'après Strabon, Géographie, entre 20 avant notre ère et 23.



Je montre que la cité de Massalia se dirige seule en surlignant les habitants qui la dirigent et la place où les lois sont exposées.

Un conseil compte 600 membres appelés timouques.
Les lois sont exposées en public sur l'agora.
D'après Strabon, Géographie, entre 20 avant notre ère et 23.



Voici ce qui était attendu.

Un conseil compte 600 membres appelés timouques.
Les lois sont exposées en public sur l'agora.
D'après Strabon, Géographie, entre 20 avant notre ère et 23.



Je montre que la cité de Massalia fait du <u>commerce maritime</u> avec d'autres cités en surlignant un <u>aménagement</u>.

La ville de Massalia est située sur un terrain pierreux. Son port s'étend au-dessous d'un rocher. La ville est défendue par de magnifiques remparts.

D'après Strabon, Géographie, entre 20 avant notre ère et 23.



Voici ce qui était attendu.

La ville de Massalia est située sur un terrain pierreux. Son port s'étend au-dessous d'un rocher. La ville est défendue par de magnifiques remparts.
D'après Strabon, Géographie, entre 20 avant notre ère et 23.



Les cités grecques s'organisent de la même manière. J'identifie les éléments importants d'une cité grecque.

Reconstitution d'une cité grecque

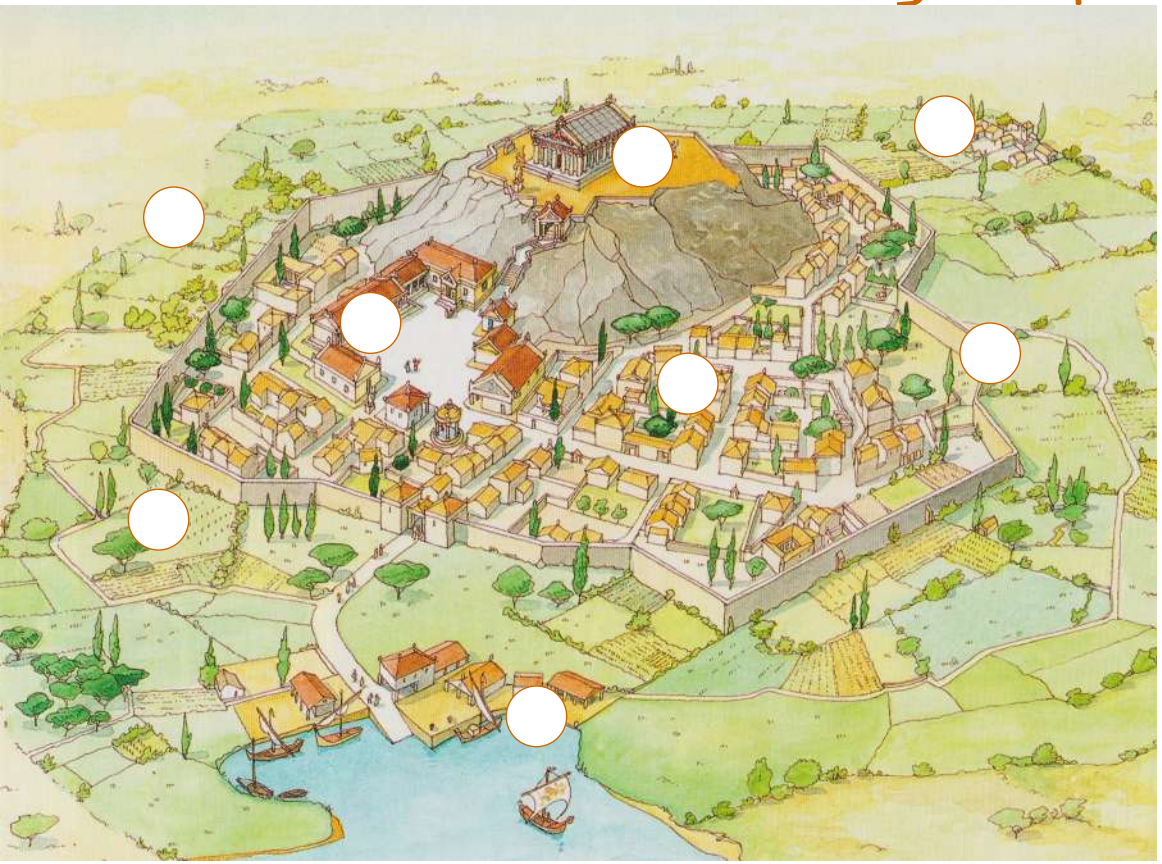

1. Acropole (temples)
2. Agora
3. ville
4. campagne
5. village
6. port
7. remparts
8. limite de la cité

Belin 2015

Voici ce qui était attendu.

Reconstitution d'une cité grecque



Belin 2015

1. Acropole (temple)
2. Agora
3. ville
4. campagne
5. village
6. port
7. remparts
8. limite de la cité

J'explique ce qu'est une cité grecque en complétant la légende.

Une cité grecque, c'est…

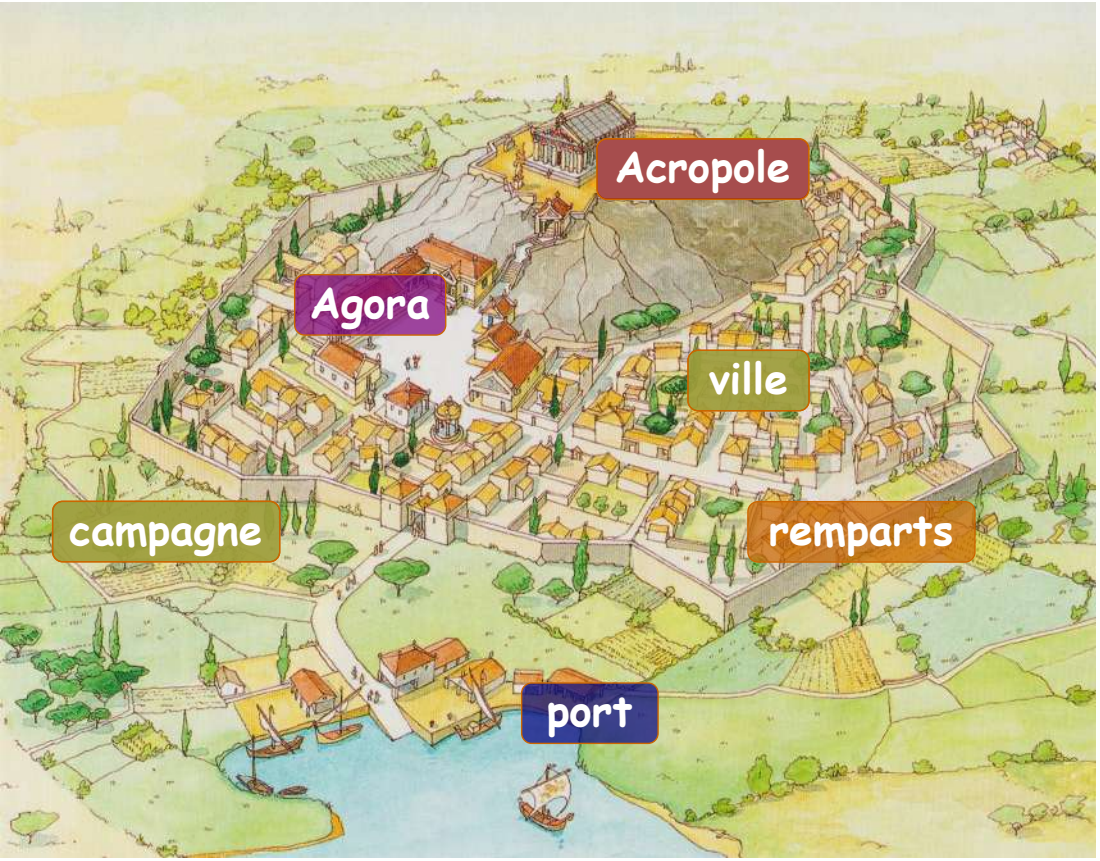

- [ ] un territoire
- [ ] protégé par des dieux
- [ ] protégé par ses habitants
- [ ] dirigé par ses habitants
- [ ] faisant du commerce avec d'autres cités

Belin 2015

Voici ce qui était attendu.

Une cité grecque, c'est…

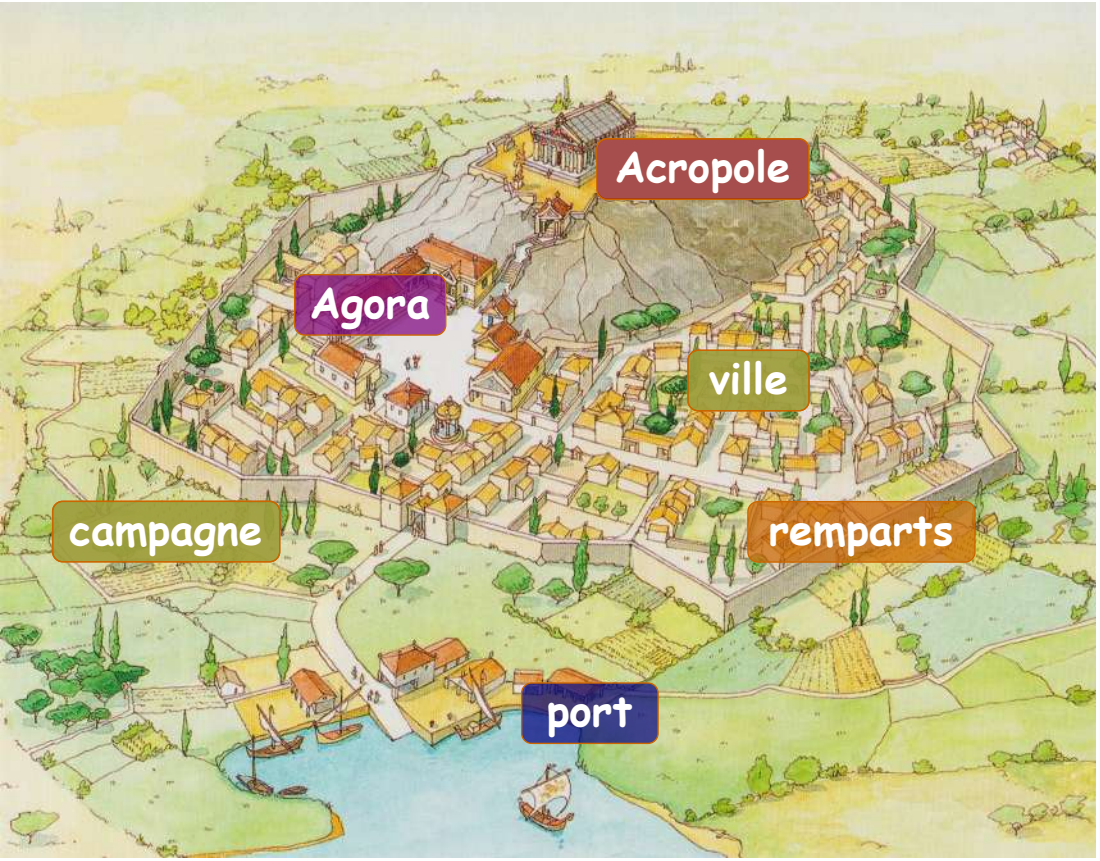

- un territoire
- protégé par des dieux
- protégé par ses habitants
- dirigé par ses habitants
- faisant du commerce avec d'autres cités

Belin 2015

J'explique de quoi vivent les Grecs à Massalia.

...

Les Massaliotes occupent un territoire favorable à la culture de l'olivier et de la vigne, mais trop pauvre en blé. Ils sont plus confiants dans les ressources que peut leur offrir la mer et préfèrent la navigation et le commerce maritime. *D'après Strabon, Géographie, entre 20 avant notre ère et 23.*



Voici ce qui était attendu.

Les Grecs vivent de l'agriculture (les terres des campagnes sont cultivées), de la pêche (dans la mer Méditerranée) et du commerce maritime.

Les Massaliotes occupent un territoire favorable à la culture de l'olivier et de la vigne, mais trop pauvre en blé. Ils sont plus confiants dans les ressources que peut leur offrir la mer et préfèrent la navigation et le commerce maritime.
D'après Strabon, Géographie, entre 20 avant notre ère et 23.



J'écoute cet extrait audio.

www.franceculture.fr

Extrait de l'émission «Concordance des temps », 6 juillet 2013

Je décris cette scène de commerce en utilisant un vocabulaire adapté.

...



Une scène de commerce, coupe grecque, VIe siècle av. notre ère

Nathan 2015

Voici ce qui était attendu.

Des esclaves pèsent des sacs (de blé peut-être) et chargent des amphores (d'huile d'olive peut-être), sous la direction d'un maître.



Une scène de commerce, coupe grecque, VIe siècle av. notre ère

Des cités rivales

J'identifie les deux camps qui se battent.

- ☐ des Grecs et des barbares (non Grecs)
- ☐ des Grecs et des Romains
- ☐ des Grecs

Des hoplites au combat
(vase, VIe siècle avant notre ère)

Voici ce qui était attendu.

- ☐ des Grecs et des barbares (non Grecs)
- ☐ des Grecs et des Romains
- ✔ des Grecs

Des hoplites au combat
(vase, VIe siècle avant notre ère)

J'explique pourquoi on peut dire que les cités grecques sont rivales.

...

Des hoplites au combat
(vase, VIe siècle avant notre ère)

Voici ce qui était attendu : je le note.

Les cités grecques s'affrontent dans des guerres.

Des hoplites au combat
(vase, VIe siècle avant notre ère)

J'identifie l'équipement du hoplite, le soldat grec.

L 'équipement du hoplite

1. cuirasse
2. ...
3. ...
4. ...

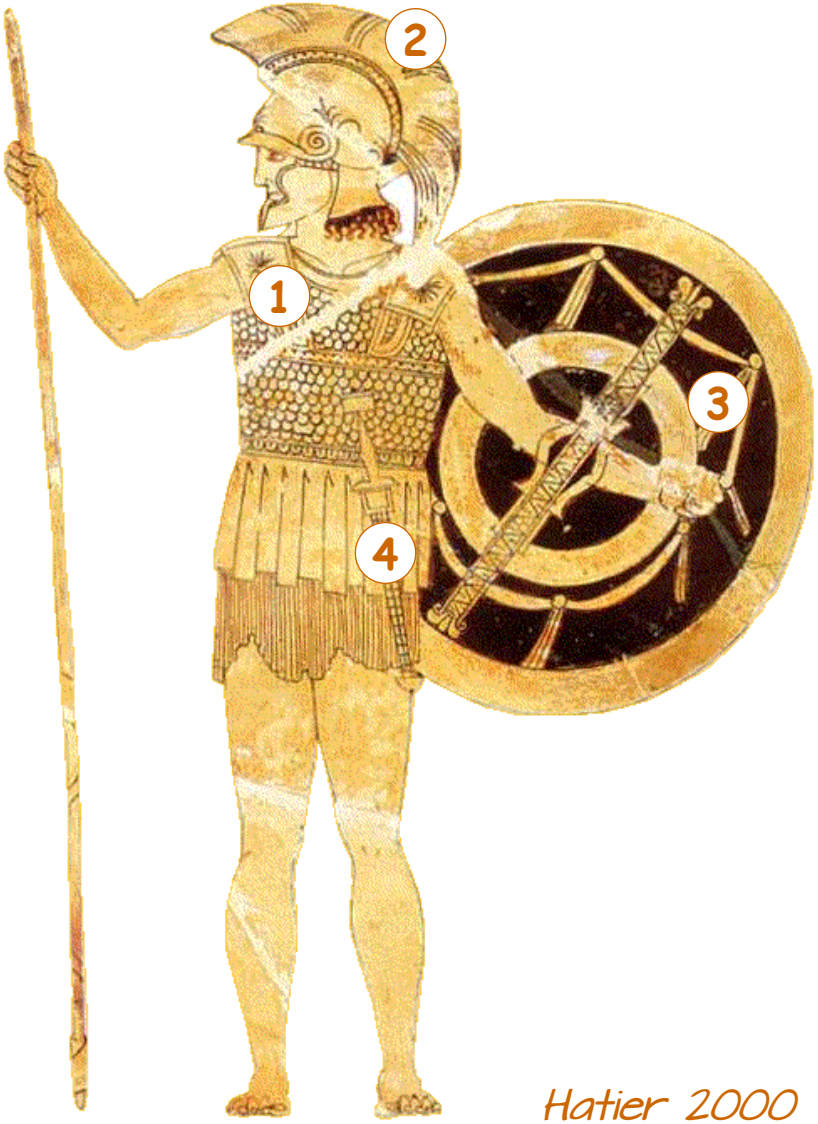

Hatier 2000

Voici ce qui était attendu : j'ajoute les numéros.

L 'équipement du hoplite

1. cuirasse
2. casque
3. bouclier
4. épée courte

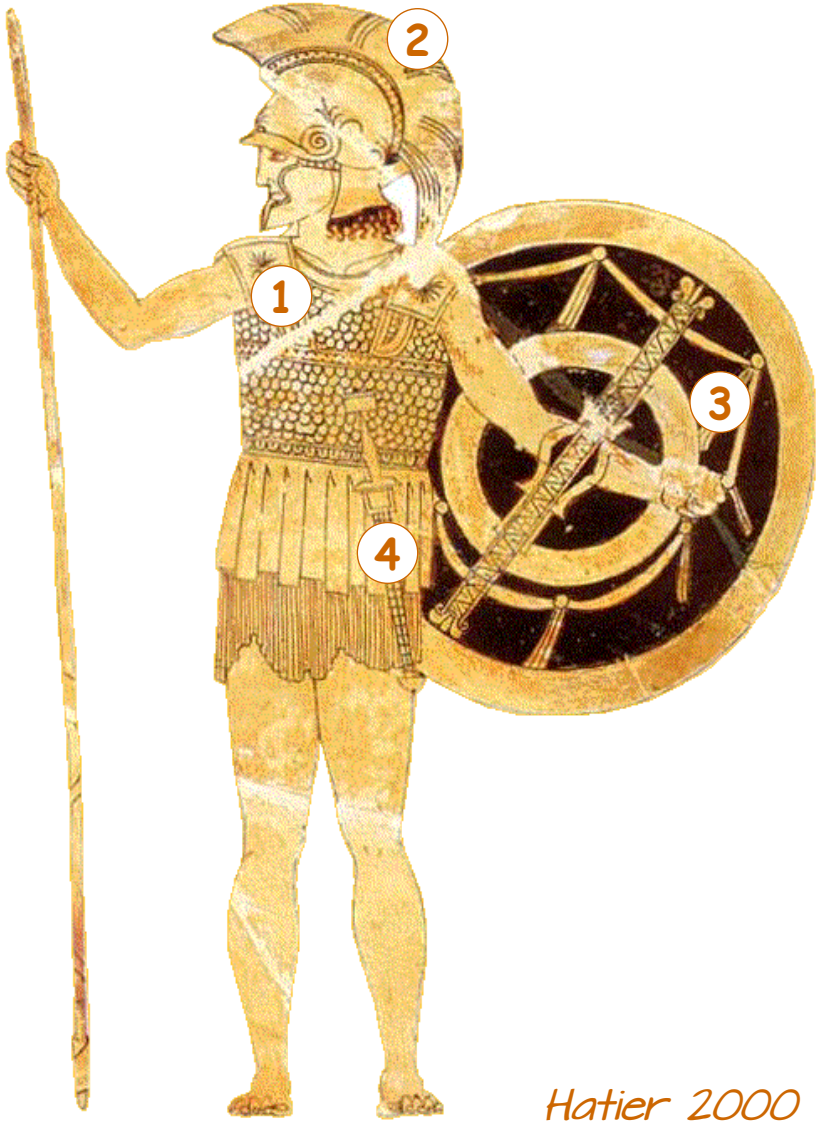

Hatier 2000

Je lis attentivement ce texte.

Serment prêté par les hoplites

Je ne déshonorerai pas les armes sacrées ; je n'abandonnerai pas mon compagnon de combat (…); je combattrai pour la défense de ce qui est demandé par les dieux et par les hommes ; je ne laisserai pas ma patrie affaiblie, mais plus grande et plus forte, dans la mesure de mes forces et avec l'aide de tous ; j'obéirai à ceux qui, tour à tour, exercent le pouvoir avec sagesse, aux lois établies et à celles qui seront établies avec sagesse. Si quelqu'un veut renverser ces lois, je ne le permettrai pas mais je les défendrai dans la mesure de mes forces et avec l'aide de tous et je respecterai les cultes anciens.

D'après une inscription grecque du IVe siècle avant notre ère.



J'explique pourquoi le hoplite se bat.

...

Je ne déshonorerai pas les armes sacrées ; je n'abandonnerai pas mon compagnon de combat (...); je combattrai pour la défense de ce qui est demandé par les dieux et par les hommes ; je ne laisserai pas ma patrie affaiblie, mais plus grande et plus forte, dans la mesure de mes forces et avec l'aide de tous ; j'obéirai à ceux qui, tour à tour, exercent le pouvoir avec sagesse, aux lois établies et à celles qui seront établies avec sagesse. Si quelqu'un veut renverser ces lois, je ne le permettrai pas mais je les défendrai dans la mesure de mes forces et avec l'aide de tous et je respecterai les cultes anciens.

D'après une inscription grecque du IVe siècle avant notre ère.



Voici ce qui était attendu : je le note.

Le hoplite défend sa cité : son territoire, ses habitants, ses lois.

Je ne déshonorerai pas les armes sacrées ; je n'abandonnerai pas mon compagnon de combat (…); je combattrai pour la défense de ce qui est demandé par les dieux et par les hommes ; je ne laisserai pas ma patrie affaiblie, mais plus grande et plus forte, dans la mesure de mes forces et avec l'aide de tous ; j'obéirai à ceux qui, tour à tour, exercent le pouvoir avec sagesse, aux lois établies et à celles qui seront établies avec sagesse. Si quelqu'un veut renverser ces lois, je ne le permettrai pas mais je les défendrai dans la mesure de mes forces et avec l'aide de tous et je respecterai les cultes anciens.

D'après une inscription grecque du IVe siècle avant notre ère.



J'identifie les deux cités qui s'affrontent dans la guerre du Péloponnèse, en les encadrant.

La guerre du Péloponnèse (431-404 avant notre ère)

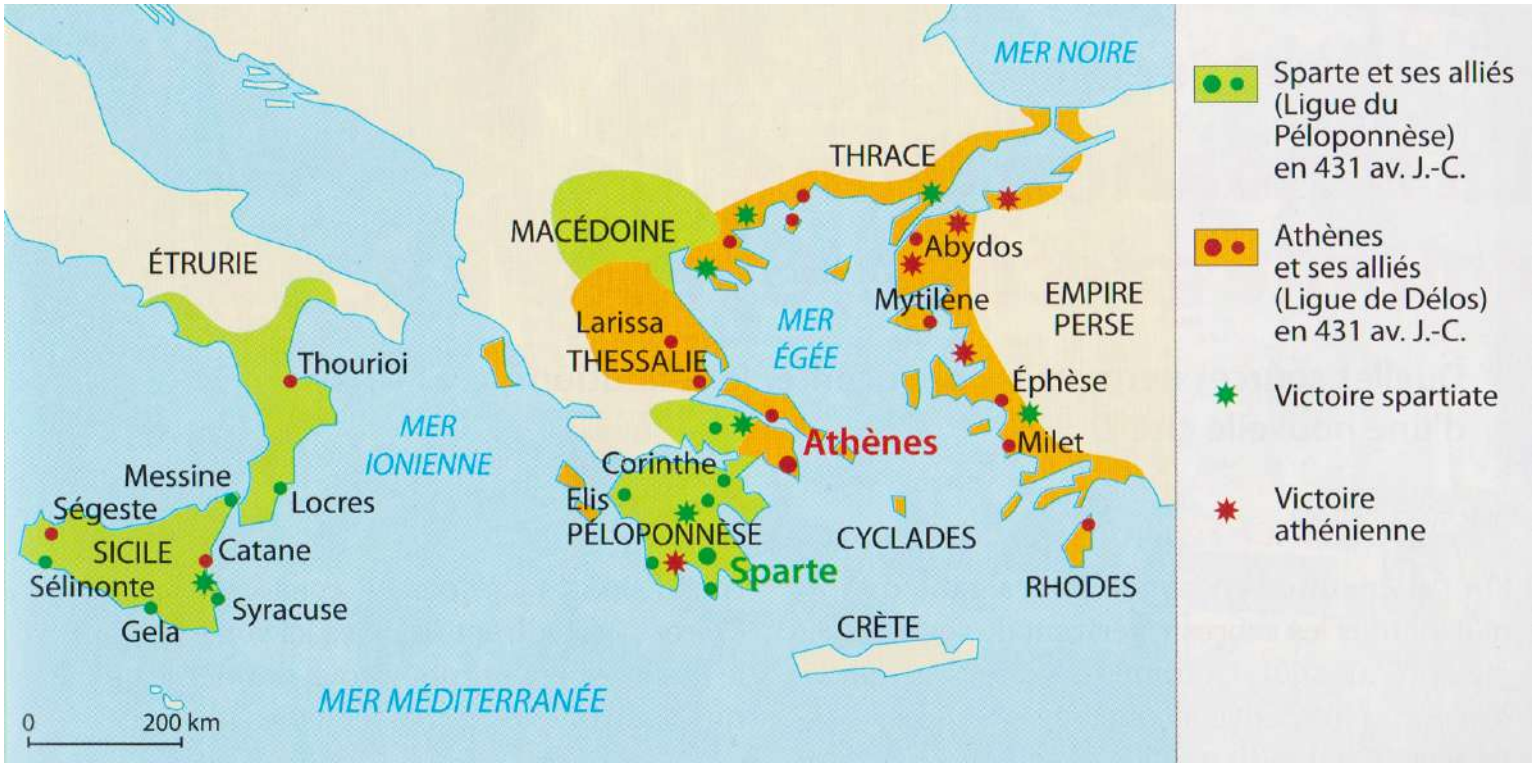

Hachette 2015

Voici ce qui était attendu : je surligne les cités d'Athènes et de Sparte.

La guerre du Péloponnèse (431-404 avant notre ère)

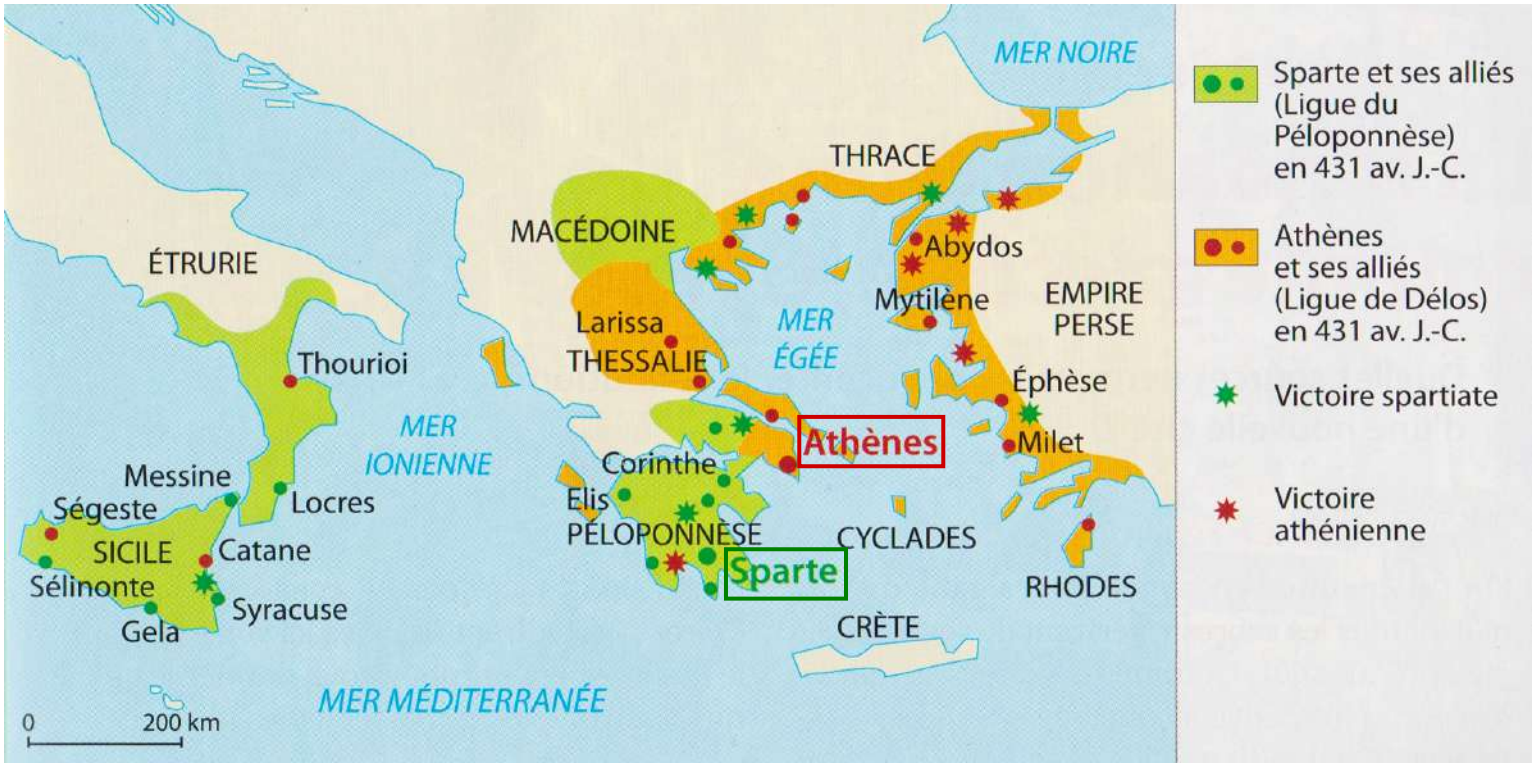

Hachette 2015

La carte du monde grec

J'identifie les mers du monde grec.

Le monde grec au VIe siècle

Mer Méditerranée

Mer Noire

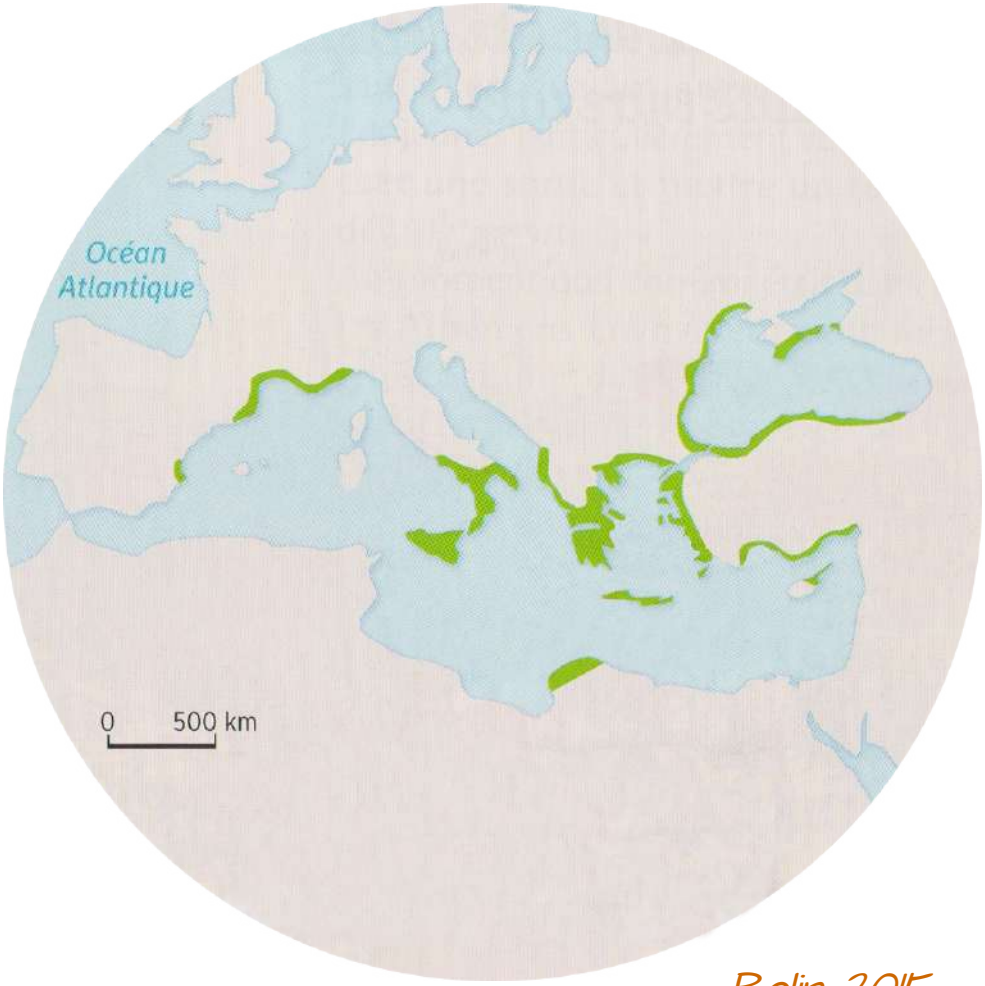

Belin 2015

Voici ce qui était attendu.

Le monde grec au VIe siècle

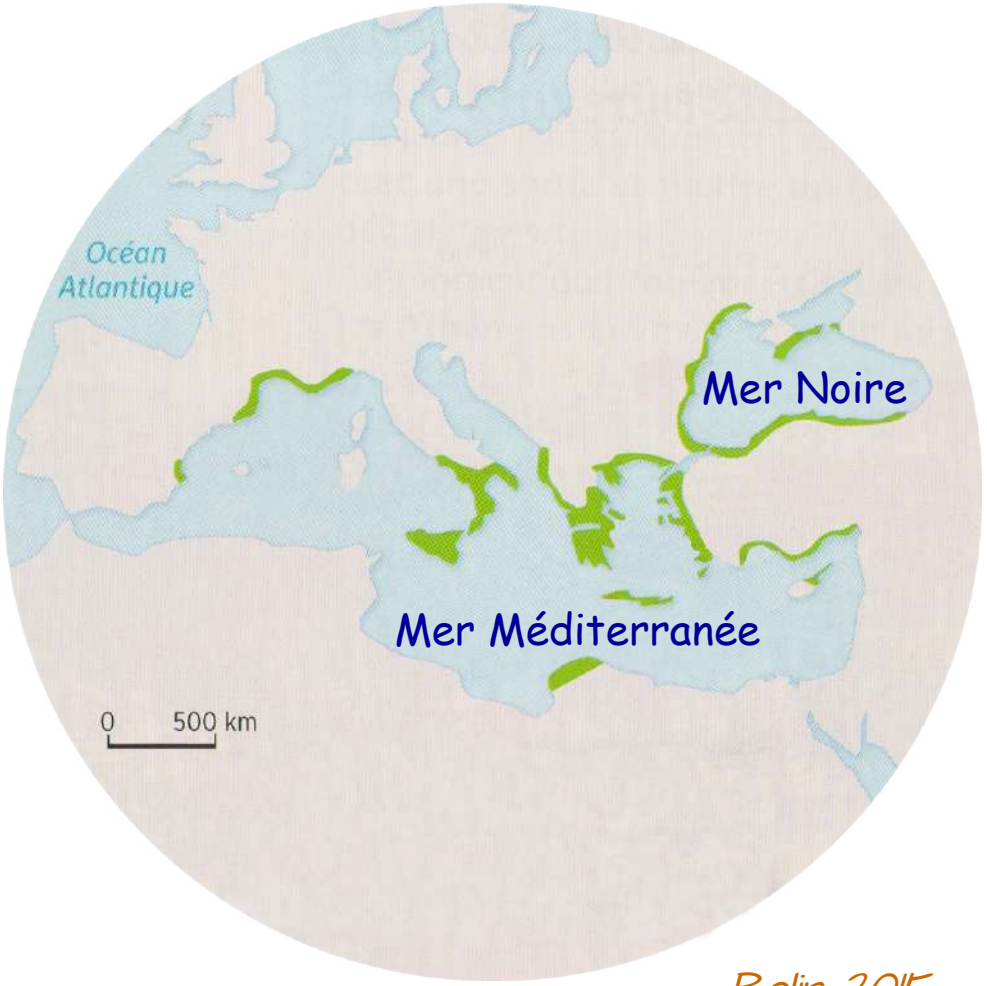

Belin 2015

Je complète la légende et j'explique où les Grecs ont fondé leurs cités.

...

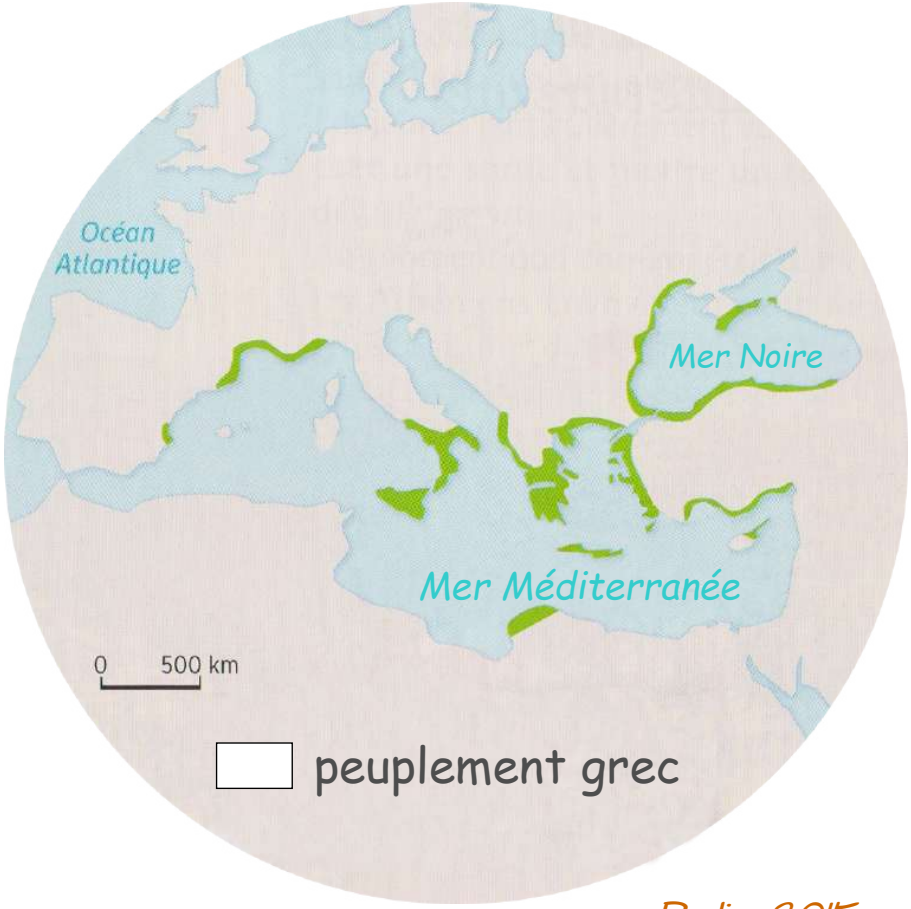

Le monde grec au VIe siècle

Belin 2015

Voici ce qui était attendu.

Les Grecs ont fondé leurs cités sur les côtes nord de la mer Méditerranée et sur celles de la mer Noire.

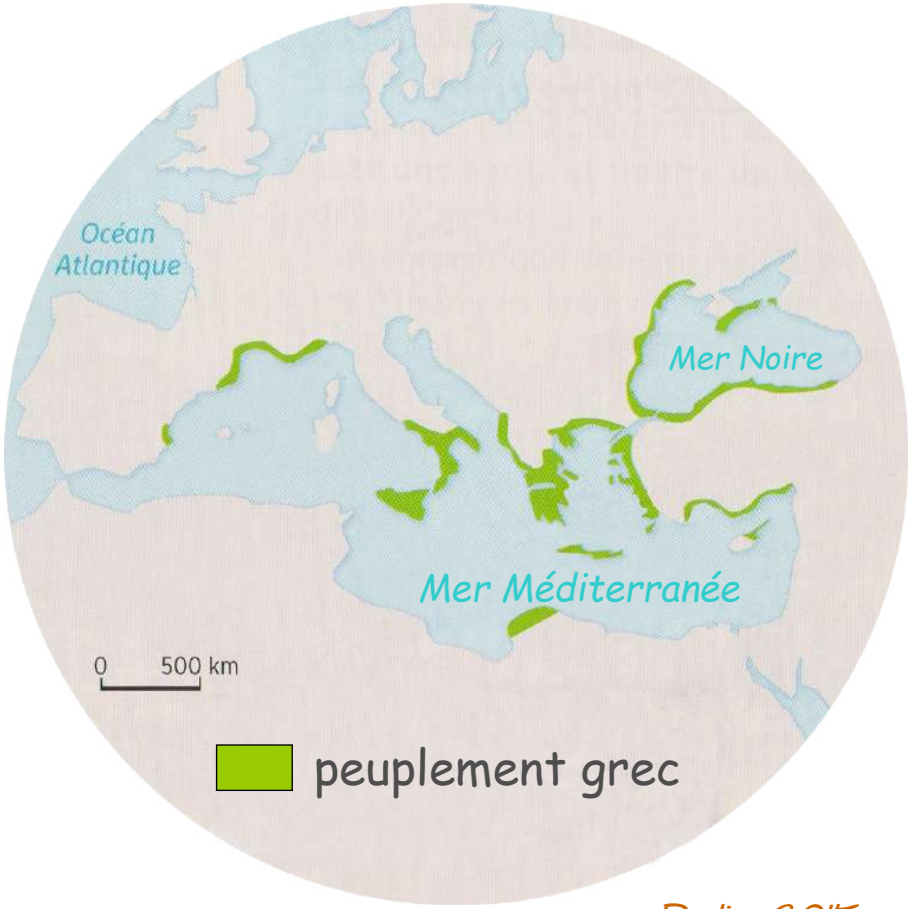

Le monde grec au VIe siècle

Belin 2015

Je nomme les trois parties du monde grec.

Le monde grec au VIe siècle

1. Grèce
2. Grèce d'Asie
3. Grande Grèce

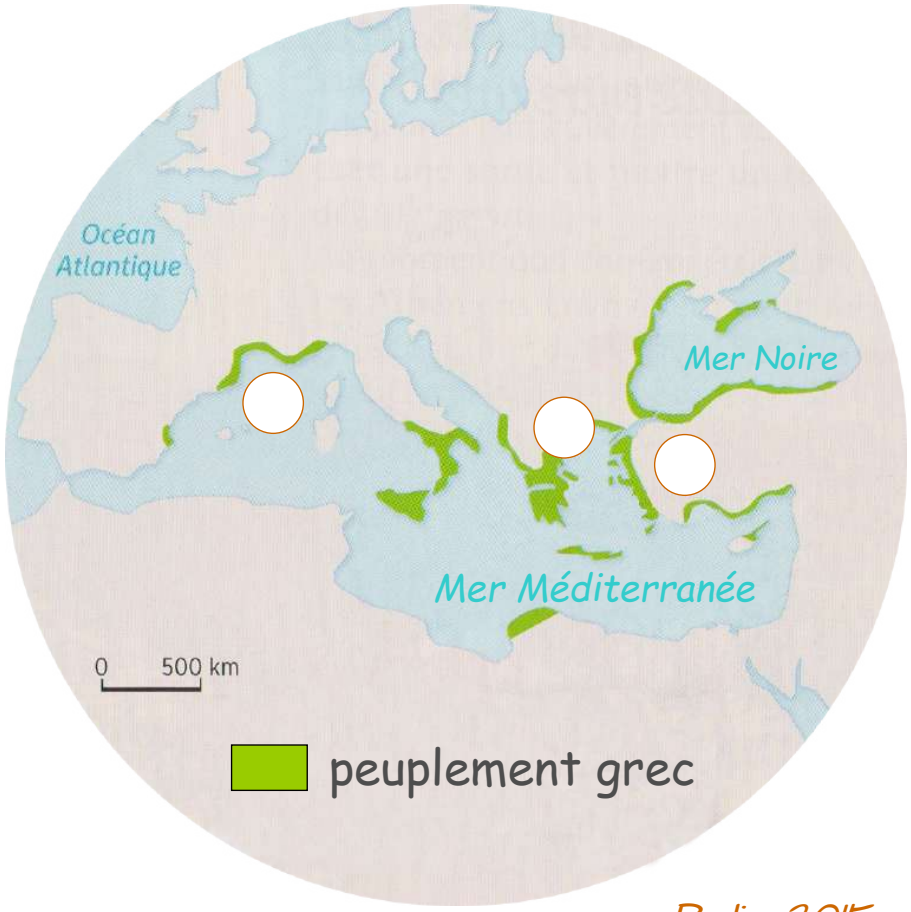

Belin 2015

Voici ce qui était attendu : je prends en note les trois parties du monde grec.

Le monde grec au VIe siècle

1. Grèce
2. Grèce d'Asie
3. Grande Grèce

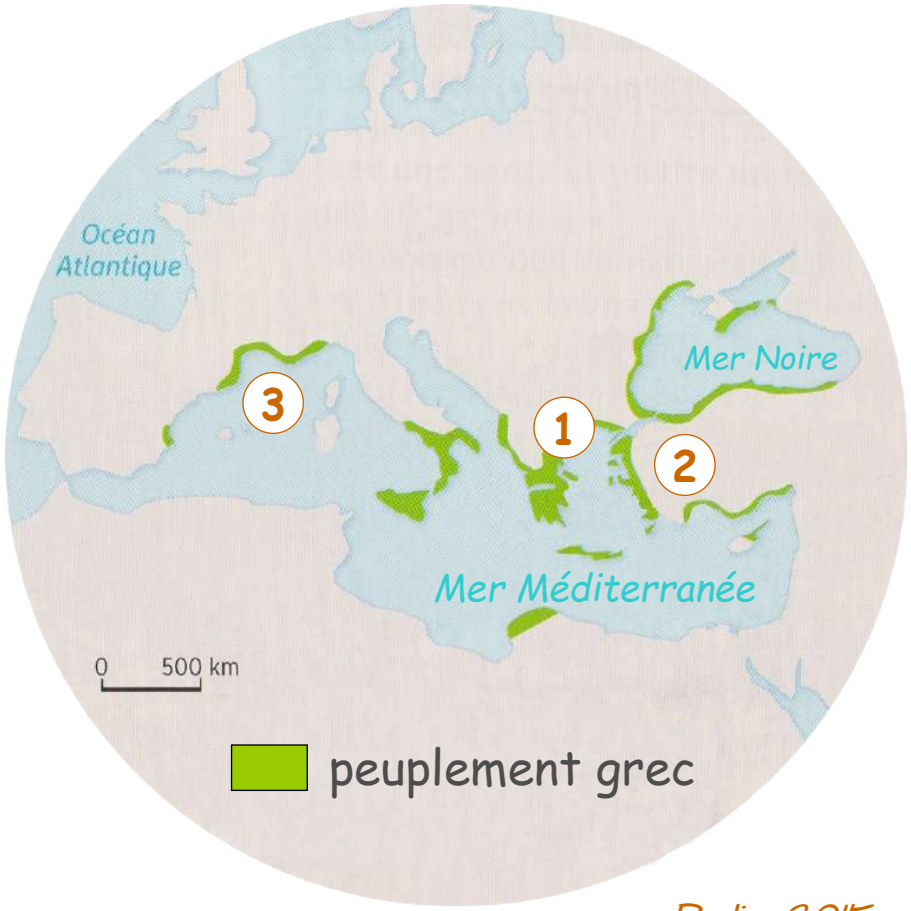

Belin 2015