Jeudi 9 avril

Mathématiques.

Choisis un des niveaux

NIVEAU 1

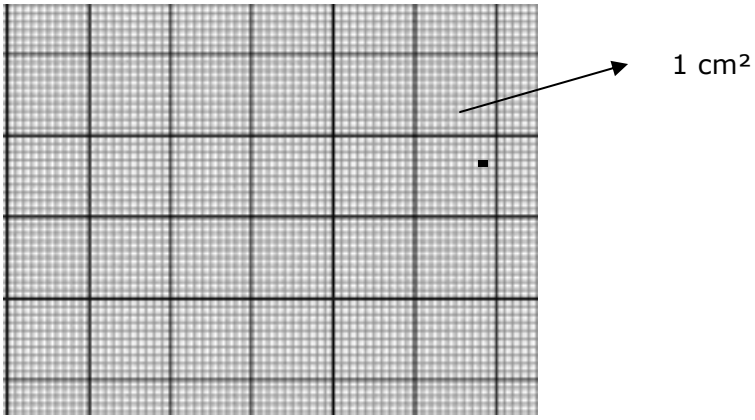

L'aire de ce carré mesure 1 cm².

Combien mesure l'aire du carré si on prend comme unité le petit carré noir de 1 mm de côté ?

	E	P
Tu as recopié le problème.		
Tu as trouvé la réponse.		
Tu as répondu à l'aide d'une phrase.		
Tu as expliqué.		

Jeudi 9 avril

Mathématiques.

NIVEAU 2

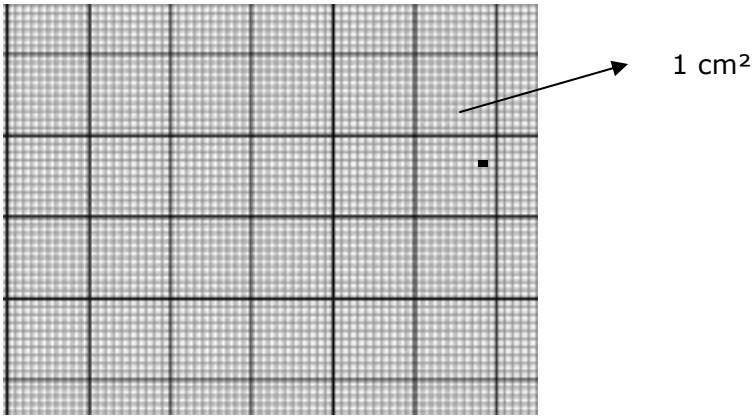

L'aire de ce carré mesure 1 cm².

Combien mesure l'aire d'un carré de 1 dm de côté en cm² ?

	E	P
Tu as recopié le problème.		
Tu as trouvé la réponse.		
Tu as répondu à l'aide d'une phrase.		
Tu as expliqué.		

Jeudi 9 avril

Mathématiques.

NIVEAU 3

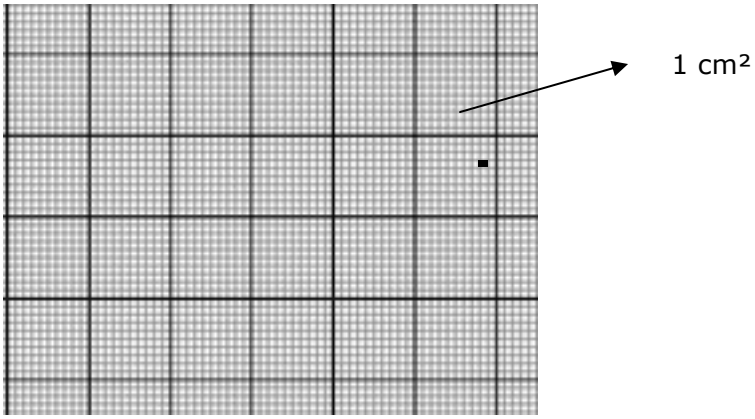

L'aire de ce carré mesure 1 cm².

Combien mesure l'aire d'un carré de 1 dm de côté si on prend l'aire du petit carré noir comme unité ?

L'aire du petit carré noir mesure 1.

	E	P
Tu as recopié le problème.		
Tu as trouvé la réponse.		
Tu as répondu à l'aide d'une phrase.		
Tu as expliqué.		